成公教育
感恩 · 极致 · 口碑

2023 年 公 务 员 考 试

资料分析专项刷题

（题本）

成 公 教 育　　编 著

行测知天下　　成公说公考

（内部资料，仅供学习交流使用）

L300GW090S

成公教育简介

成公教育，是一家集公务员、事业单位、招警、选调生、村干部、三支一扶、军转干、银行、党政领导干部公开遴选、教师招录等考试研究、培训于一体的综合性教育产业。同时，公司还承担不同部门或机构的各种项目。公司拥有精良而雄厚的师资，先进而完善的教研体系，高效而庞大的管理团队，为全国各地学员提供了一个学习、研讨、交流及互动的综合性发展平台。

公司于 2008 年 2 月份成立，起初通过高端平台从事干部公开遴选等高端 培训，从 2010 年开始先后成立了公务员考试申论研究院、行政职业能力测验研究院、公共基础知识研究院、面试研究院及蒙语事业部等学术、教学研究部门。

成公教育，秉承“做学术、做教育、做口碑、做责任”的教育理念，为全国各地不同级别的机关单位培养了大批优秀人才，取得了良好的社会效应，是社会公认的师资力量强大，具有较强权威性、影响力，资源丰富的公务员考试研究机构！走进成公，成为家人，会有机会和各界精英同窗学习，享有较高的起步平台和不一样的人脉资源！公务员之路，从成公起步！

成公教育学术教研院针对公务员考试大纲研发出独到的授课体系和方法，分阶段、分步骤展开课程教学，从基础强化到封闭集训，熟练掌握各类技巧和方法，再到考前押题冲刺，时间短，见效快！

成公教育的口号是：“聚中华之名师，创成公之典范”“学员就是我们的广告”“用生命做口碑”。成公教育多年来在业内创造了极好的口碑，并创造了极高的通过率。

学员送给成公教育的感恩之语是：“只要你从成公教育的课堂走出，你就站在了竞争对手无法抵达的高度！”

目 录

资料分析刷题专项提升

第一组 1

材料 1 1

材料 2 2

材料 3 4

材料 4 5

第二组 8

材料 1 8

材料 2 9

材料 3 11

材料 4 12

第三组 15

材料 1 15

材料 2 16

材料 3 18

材料 4 20

第四组 23
材料 1 23
材料 2 24
材料 3 26
材料 4 28
第五组 30
材料 1 30
材料 2 31
材料 3 33
材料 4 34
第六组 37
材料 1 37
材料 2 38
材料 3 40
材料 4 42
第七组 44
材料 1 44
材料 2 45
材料 3 46
材料 4 48
第八组 50

材料 1 50
材料 2 52
材料 3 53
材料 4 55
第九组 58
材料 1 58
材料 2 60
材料 3 61
材料 4 63
第十组 65
材料 1 65
材料 2 66
材料 3 68
材料 4 70

资料分析刷题专项提升

第一组

材料 1

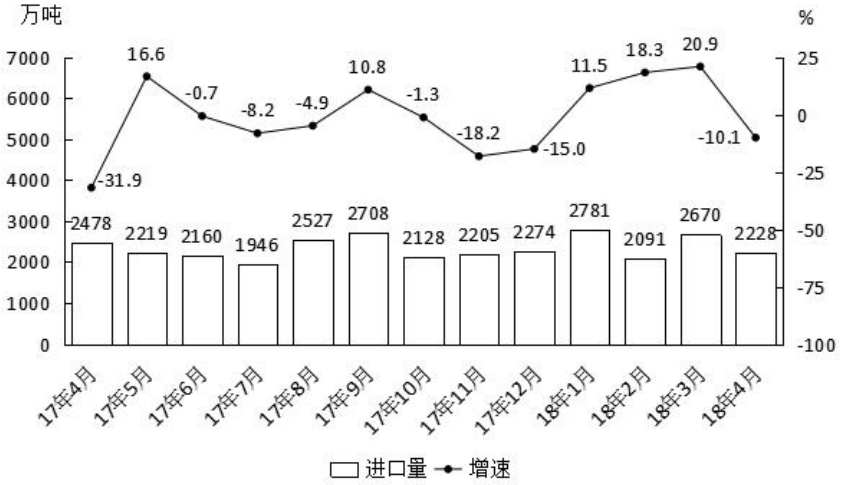

图1 2017年4月～2018年4月我国煤炭进口量及同比增速

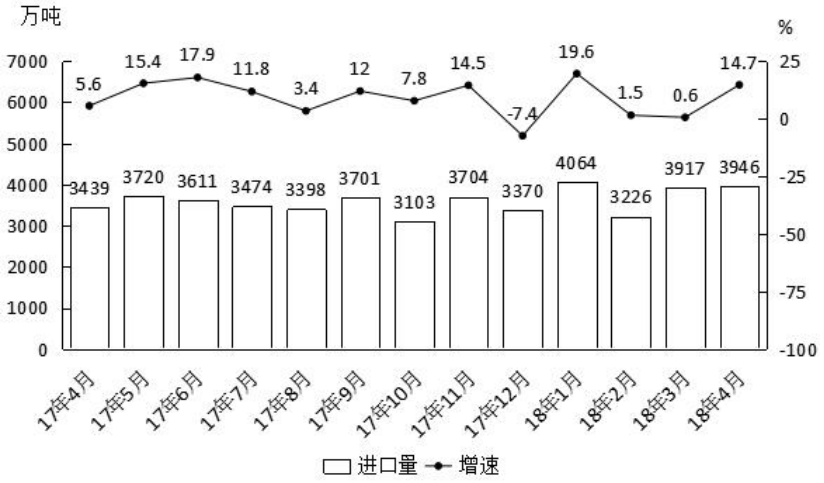

图2 2017年4月～2018年4月我国原油进口量及同比增速

1．2017 年下半年煤炭进口量同比增速最高的月份，当月煤炭进口量比上月约：

A．下降 10%

B．下降 25%

C．上升 7%

D．上升 28%

2．2017 年下半年，我国平均每月进口原油：

A．不到 3300 万吨

B．在 3300～3400 万吨之间

C．在 3400～3500 万吨之间

D．超过 3500 万吨

3．2017 年 9 月和 10 月，我国原油进口金额分别为 136 亿和 121.4 亿美元，10 月平均每吨原油的进口价格较 9 月：

A．上升了不到 50 美元

B．上升了 50 美元以上

C．下降了不到 50 美元

D．下降了 50 美元以上

4．2017 年 4 月～2018 年 4 月间，原油进口量同比增速超过煤炭进口量同比增速的月份有多少个？

A．3

B．5

C．8

D．10

5．能够从上述资料中推出的是：

A．2017 年 4 月，我国原油进口量低于上月水平

B．2017 年 4 季度，我国煤炭进口量高于上季度水平

C．2018 年 1 月，我国原油进口量同比增长 700 万吨以上

D．2017 年 2～4 季度我国煤炭进口量最高的月份，进口量同比增速也最高

材料 2

2011 年前十一个月，某省高新技术产业完成总产值 3763.00 亿元，实现增加值 896.31 亿元。增加值同比增长 30.74%，比规模以上工业增加值高 11.64 个百分

点，占规模以上工业增加值的比重达到 25.32%。高新技术产业各领域的增加值如下图所示：

高新技术产业各领域增加值饼形图（单位：亿元）

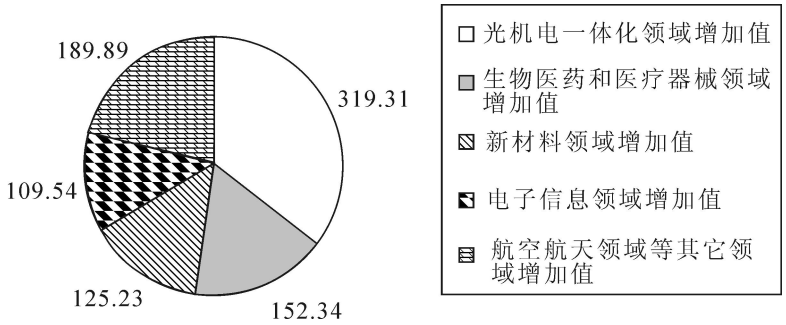

1．2011 年前十一个月，该省规模以上工业增加值同比增长约为多少？

A．11.64%

B．19.10%

C．30.74%

D．42.38%

2．2010 年前十一个月，该省规模以上工业增加值约为多少亿元？

A．2972

B．3540

C．3865

D．4373

3．2011 年前十一个月，光机电一体化领域实现增加值与生物医药和医疗器械领域、新材料领域、电子信息领域增加值总和的比约为：

A．3：5

B．3：4

C．5：6

D．9：10

4．若该省高新技术产业增加值保持同样的增长速度，则 2012 年前十一个月高新技术产业增加值比 2010 年同期约增加多少亿元？

A．210.7

B．486.3

C．275.5

D．685.6

5．关于该省高新技术产业各领域增加值情况，下列说法错误的是：

A．生物医药和医疗器械领域的增加值超过全省高新技术产业增加值的 1/6

B．光机电一体化领域与新材料领域增加值之和大约是全省高新技术产业增加值的 1/2

C．航空航天领域实现的增加值可能不到全省高新技术产业增加值的 1/3

D．生物医药和医疗器械领域与电子信息领域增加值之和不到全省高新技术产业增加值的 1/4

材料 3

2010 年末，某市民用车辆拥有量达 309.7 万辆，同比增长 8.7%。其中，进口车拥有量 12.54 万辆，增长 43.2%。

2010 年某市民用车辆拥有量

品种	拥有量(万辆)	同比增长(%)
汽车	170.25	15.6
电车	0.02	−8.8
摩托车	129.12	0.4
拖拉机	1.16	0.7
挂车	3.54	23.0
其他类型车	5.60	12.9

2010 年末，该市个人车辆拥有量 229.83 万辆，同比增长 9.2%，个人汽车拥有量 103.85 万辆，增长 21.9%，其中个人轿车拥有量 86．54 万辆，增长 21.8%。

2010 年该市新注册车 39.76 万辆，同比增长 44.1%，其中新注册汽车 33.79 万辆，增长 50.1%，全年报废车辆 5.81 万辆，比 2009 年下降 53.1%。

2010 年末，该市机动车驾驶人员数量为 448.48 万人，比上年增长 9.2%，其中汽车驾驶人员 412.56 万人，增长 13.7%。

1．2009 年末，该市进口车拥有量占民用车辆的比重约为多少？

A．2%

B．3%

C．4%

D．5%

2．2010 年末，该市民用车辆拥有量比上年末增加多少万辆？

A．19.8

B．24.8

C．29.8

D．34.8

3．按 2010 年该市民用车辆拥有量，从多到少排列，以下正确的是：

A．汽车挂车电车

B．汽车拖拉机挂车

C．摩托车电车拖拉机

D．摩托车汽车挂车

4．关于 2010 年末该市民用车辆拥有状况，下列说法与资料不符的是：

A．个人车辆占民用车辆的比重同比上升

B．个人汽车占个人车辆的比重同比上升

C．个人轿车占个人汽车的比重同比上升

D．汽车驾驶人员占机动车驾驶人员的比重同比上升

5．下列说法与资料相符的是：

A．2009 年该市新注册车辆数多于报废车辆数

B．2010 年该市拥有的民用车辆中汽车所占比重超过 6 成

C．2010 年该市进口车拥有量同比增速低于民用车辆平均水平

D．2010 年该市汽车拥有量大幅上涨的原因是报废车辆数量大幅下降

材料 4

2006 年至 2011 年全年我国农村居民人均纯收入分别为 3587 元、4140 元、4761 元、5153 元、5919 元、6977 元；城镇居民人均可支配收入分别为 11759 元、13786 元、15781 元、17175 元、19109 元、21810 元。

2006 年至 2011 年全年我国粮食产量分别为 49804 万吨、50160 万吨、52871 万吨、53082 万吨、54648 万吨、57121 万吨。

与 2010 年相比，2011 年全年粮食种植面积 11057 万公顷，增加 70 万公顷；

棉花种植面积 504 万公顷，增加 19 万公顷；油料种植面积 1379 万公顷，减少 10 万公顷；糖料种植面积 195 万公顷，增加 4 万公顷；棉花产量 660 万吨，增产 10.7%；油料产量 3279 万吨，增产 1.5%；糖料产量 12520 万吨，增产 4.3%；肉类总产量 7957 万吨，增长 0.4%，其中，猪肉产量 5053 万吨，下降 0.4%；养殖水产品产量 4026 万吨，增长 5.2%；捕捞水产品产量 1574 万吨，增加 1.9%。

2011 年末全国参加城镇基本医疗保险的人数 47291 万人，增加 4028 万人。其中，参加城镇职工基本医疗保险人数 25226 万人，参加城镇居民基本医疗保险 22065 万人。截至 9 月底，2646 个县（市、区）开展了新型农村合作医疗工作，新型农村合作医疗参合率 97.5%；新型农村合作医疗基金支出总额为 1114 亿元，受益 8.4 亿人次。

1．2011 年我国城镇居民人均可支配收入比 2008 年大约增加了：

A．18%

B．38%

C．58%

D．85%

2．2010 年，我国水产品产量大约达到多少万吨？

A．1500

B．3800

C．5000

D．5300

3．2010~2011 年，下列哪项年增长速度最快？

A．农村居民人均纯收入

B．粮食种植面积

C．棉花产量

D．粮食产量

4．2010 年，我国猪肉产量占肉类总产量的比重约为：

A．43%

B．53%

C．64%

D．84%

5．根据上述资料，下列说法错误的是：

A．2011 年末，我国参加城镇居民基本医疗保险人数约占参加城镇基本医疗保险人数的 46.7%

B．2011 年棉花、油料、糖料的总种植面积比上年增加约 13 万公顷

C．2011 年前三个季度，开展了新型农村合作医疗工作的县（市、区）中，人均基金支出大约为 130 元

D．2006 年至 2011 年，我国城镇居民人均可支配收入增长比农村居民人均纯收入增长慢

第二组

材料 1

2014 年，某省规模以上工业企业（年主营业务收入 500 万元及以上的工业法人企业）38188 家，比上年增加 2896 家，增长 8.2%。实现增加值 16718.8 亿元，增长 13.8%，回落 7.0 个百分点。其中，轻工业增长 13.2%，重工业增长 14.1%，分别回落 5.8 和 7.6 个百分点；非公有工业增加值 10912.0 亿元，增长 17.1%，回落 8.5 个百分点。

表 2014 年规模以上工业增加值及增长速度

	增加值（亿元）	比上年增长（%）
全省	16718.8	13.8
其中：轻工业	5451.5	13.2
重工业	11267.3	14.1
其中：国有企业	984.4	4.6
集体企业	826.5	8.3
股份合作企业	195.1	13.8
股份制企业	9863.2	15.1
外商及港澳台商投资企业	3137.4	14.1
其他经济类型企业	1712.1	17.2

1．2013 年国有企业实现增加值占全省的规模以上工业实现增加值的比重为：

A．6.4%

B．7.9%

C．9.1%

D．10.2%

2．2014 年，该省规模以上工业企业平均每家实现增加值同比增长：

A．4.5%

B．5.2%

C．5.9%

D．6.7%

3．2013 年，该省规模以上公有工业实现增加值为：

A．5806.8 亿元

B．5602.6 亿元

C．5372.9 亿元

D．4588.3 亿元

4．与 2013 年相比，2014 年下列各类企业实现增加值同比增加最小的是：

A．国有企业

B．集体企业

C．外商及港澳台商投资企业

D．其他经济类型企业

5．根据表格，下列说法不正确的是：

A．假设以当前的发展速度，在 2016 年，该省规模以上的国有企业实现增加值将达到 1077.0 亿元

B．2013 年，该省规模以上的工业中，重工业实现的增加值是轻工业的 2 倍左右

C．2014 年，股份制企业增加值的增长有效的拉动了该省规模以上工业增加值的增长

D．2013 年，该省轻工业企业增加值 4046.9 亿元

材料 2

截至 2014 年 12 月底，全国实有各类市场主体 6932.22 万户，比上年增长 14.35%，增速较上年同期增加 4.02 个百分点；注册资本（金）129.23 万亿元，比上年末增长 27.70%。其中，企业 1819.28 万户，个体工商户 4984.06 万户，农民专业合作社 128.88 万户。

2014 年，全国新登记注册市场主体 1292.5 万户，比上年同期增加 160.97 万户；注册资本（金）20.66 万亿元，比上年同期增加 9.66 万亿元。其中，企业 365.1 万户，个体工商户 896.45 万户，农民专业合作社 30.95 万户。

2014 年，新登记注册现代服务业企业 114.10 万户，同比增长 61.41%。其中，

信息传播、软件和信息技术服务业 14.67 万户，同比增长 97.87%；科学研究和技术服务业 26.26 万户，同比增长 70.32%；文化、体育和娱乐业 6.59 万户，同比增长 83.51%；教育业 0.68 万户，同比增长 86.17%。

2014 年，新登记注册外商投资企业 3.84 万户，同比增长 5.76%。投资总额 2763.31 亿美元，同比增长 15.0%；注册资本 1796.39 亿美元，同比增长 23.87%。

1．截至 2012 年 12 月底，全国实有各类市场主体户数最接近以下哪个数字？

A．6100 万

B．5500 万

C．5100 万

D．4500 万

2．2014 年，全国新登记注册市场主体中个体工商户所占比重约为：

A．75%

B．69%

C．85%

D．81%

3．2014 年，以下哪个现代服务业新登记注册企业的户数同比增速最快？

A．科学研究和技术服务业

B．教育业

C．文化、体育和娱乐业

D．信息传播、软件和信息技术服务业

4．2014 年，新登记注册外商投资企业户均注册资本约比上年同期增长：

A．17%

B．12%

C．8%

D．4%

5．能够从上述资料中推出的是：

A．2014 年新登记注册现代服务业企业大部分属于教育行业

B．2014 年末超过三分之一的农民专业合作社成立不满一年

C．2013 年全国实有各类市场主体注册资本（金）不足 100 万亿元

D．2013 年新登记注册科学研究和技术服务业企业不到 20 万户

材料 3

2014 年全国社会物流总额 213.5 万亿元，同比增长 7.9%，比上年回落 1.6 个百分点。

2014 年全国社会物流总费用 10.6 万亿元，同比增长 6.9%，其中，运输费用 5.6 万亿元，同比增长 6.6%；保管费用 3.7 万亿元，同比增长 7.0%；管理费用 1.3 万亿元，同比增长 7.9%。

2014年全国社会物流总额构成情况

	总额（亿元）	当年同比增速（%）	2013年同比增速（%）
工业品物流	1969000	8.3	9.7
进口货物物流	120000	2.1	6.4
再生资源物流	8455	14.1	20.3
农产品物流	33000	4.1	4
单位与居民物品物流	3696	32.9	30.4

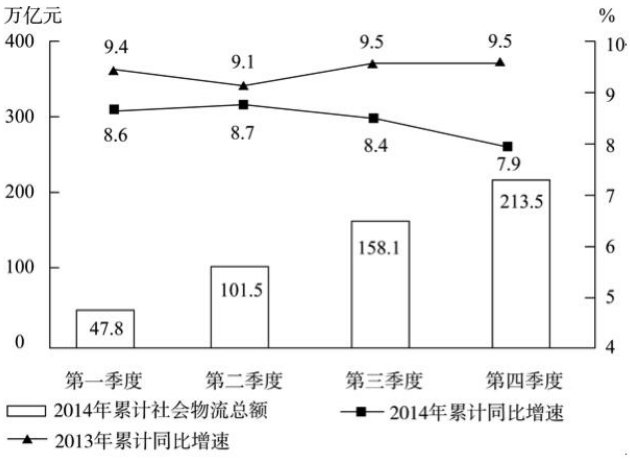

1．2014 年每实现 100 万元的社会物流额，其运输费用平均约为多少万元？

A．5.6

B．10.6

C．2.6

D．5.0

2．2014 年占全国社会物流总额比重均高于上一年水平的分类包括：

A．再生资源物流、单位与居民物品物流、农产品物流

B．工业品物流、再生资源物流、单位与居民物品物流

C．进口货物物流、农产品物流、单位与居民物品物流

D．工业品物流、进口货物物流、农产品物流

3．2014 年全国社会物流总额最高的季度是：

A．第一季度

B．第二季度

C．第三季度

D．第四季度

4．2012 年上半年全国社会物流总额约为多少万亿元？

A．75

B．86

C．93

D．102

5．能够从上述资源中推出的是：

A．2013 年第三季度社会物流总额同比增速高于第四季度

B．2014 年每万元社会物流总额的平均管理费用低于上年水平

C．2014 年农产品物流额在社会物流总额中的比重高于一成

D．2014 年单位与居民物品物流额超过 2012 年的两倍

材料 4

2015 年 1-5 月，B 区规模以上文化创意产业完成收入 46.2 亿元，比上年同期增长 10.8%，比 1-4 月增幅收窄 0.8 个百分点，从业人员平均人数 1.3 万人，比上年同期下降 2.4%。

1-5 月，B 区规模以上文化创意产业实现利润总额-0.4 亿元，亏损额比 1-4 月略有扩张，亏损额同比略有收窄。其中，新闻出版亏损额进一步扩大，实现利润总额-0.3 亿元，比上年同期亏损额增加 0.2 亿元；软件、网络及计算机服务受个别企业业务整合的影响，降幅较大，实现利润 0.2 亿元，同比下降 81.3%；其他辅助服务亏损额大幅收窄，实现利润-0.1 亿元，亏损额同比减少 1.1 亿元。

截止到 5 月底，B 区规模以上文化创意产业规模较小，法人单位只有 84 家，仅占全市的 1.0%；大型企业匮乏，收入达亿元企业只有 8 家，中小型企业居多。

B区2015年1-5月文化创意产业按门类划分收入构成情况

单位：亿元

产业类别	单位数	收入合计	比重（%）	增速（%）
合计	84	46.2	100	10.8
一、文化艺术	4	0.1	0.2	-27.9
二、新闻出版	18	7.9	17	-2.7
三、广播、电视、电影	3	0.4	0.9	-27.1
四、软件、网络及计算机服务	9	2.2	4.7	-23.5
五、广告会展	16	6.3	13.7	20
六、艺术品交易	0	0	0	0
七、设计服务	1	0.1	0.1	46.8
八、旅游、休闲娱乐	13	4.1	9	82
九、其他辅助服务	20	25.2	54.4	11.9

1. 2015 年 1-5 月 B 区规模以上文化创意产业从业人员人均完成收入约比上年同期增长：

A．2.5%

B．8.4%

C．10.8%

D．13.4%

2．该区规模以上文化创意产业中，以下哪个领域 2015 年 1-5 月平均每个单位创造的收入为各选项中最低？

A．新闻出版

B．广告会展

C．软件、网络及计算机服务

D．旅游、休闲娱乐

3．2014 年 1-5 月 B 区其他辅助服务产业亏损额约是新闻出版业的多少倍？

A．0.3

B．2.4

C．5.5

D．12.0

4．文化创意产业九大领域中，2015 年 1-5 月收入增速最快的三个领域共有多少家单位？

A．16

B．30

C．39

D．54

5．根据上述材料，下列推断中正确的一项是：

A．2015 年 1-5 月该区广告会展业收入同比增长了 1 亿多元

B．2015 年 5 月底全市规模以上文化创意产业法人单位超过 9000 家

C．2015 年 1-5 月该区收入超过亿元的企业中有的来自广播、电视、电影业

D．2015 年 5 月该区平均每家规模以上文化创意产业法人单位拥有 200 多名从业人员

第三组

材料 1

2016 年 S 市全年用于研究与试验发展（R&D）经费支出总额为 1030.00 亿元，占 S 市生产总值的比重为 3.80%。

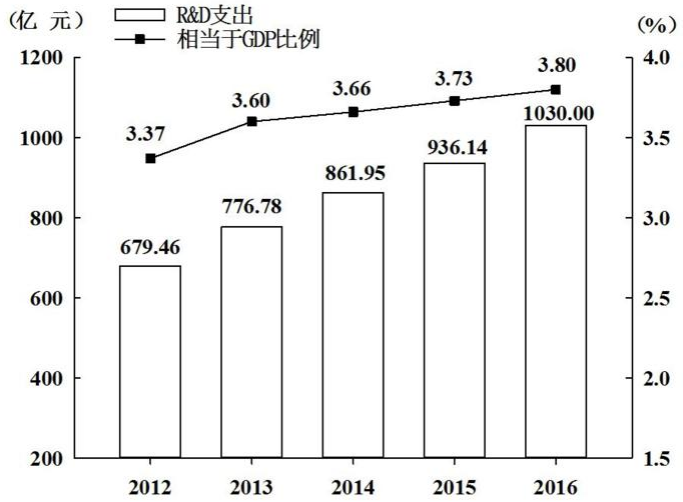

图　2012-2016年R&D经费支出及其相当于S市生产总值的比例

全年受理专利申请 119937 件，比上年增长 19.9%，其中，受理发明专利申请 54339 件，增长 15.7%。全年专利授权量为 64230 件，增长 5.9%，其中，发明专利授权量为 20086 件，增长 14.1%。全年 PC.T 国际专利受理量为 1560 件，比上年增长 47.2%。至年末，全市有效发明专利达 85049 件。年内全市新认定高新技术企业 2306 家。年内认定高新技术成果转化项目 469 项，其中，电子信息、生物医药、新材料等重点领域项目占 87.4%。至年末，共认定高新技术成果转化项目 10969 项。全年经认定登记的各类技术交易合同 2.12 万件，比上年下降 5.8%，上年同期为下降 4.1%；合同金额 822.86 亿元，增长 16.2%，上年同期为增长 14.3%。

1．2013～2016 年间，S 市研究与试验发展经费与上年比增速最快的年份是：

A．2013 年

B．2014 年

C．2015 年

D．2016 年

2．2015 和 2016 年 S 市研究与试验发展经费总支出约占同期生产总值的：

A．3.67%

B．3.74%

C．3.77%

D．3.84%

3．2016 年全年经认定登记的各类技术交易合同比 2014 年约下降多少？

A．7.6%

B．8.8%

C．9.2%

D．9.7%

4．2016 年 S 市全年受理专利申请比 2015 年约增加多少万件？

A．2.0

B．1.8

C．1.6

D．1.4

5．根据上述资料，下列说法不正确的是：

A. 2016 年研究与试验发展经费支出占生产总值的比重比 2012 年高 0.43 个百分点

B．2012-2016 年，年均研究与试验发展经费支出超过 800 亿元

C．2016 年，发明专利授权量占专利授权量的三分之一以上

D．2016 年，平均每件经认定登记的各类技术交易合同金额不超过 400 万元

材料 2

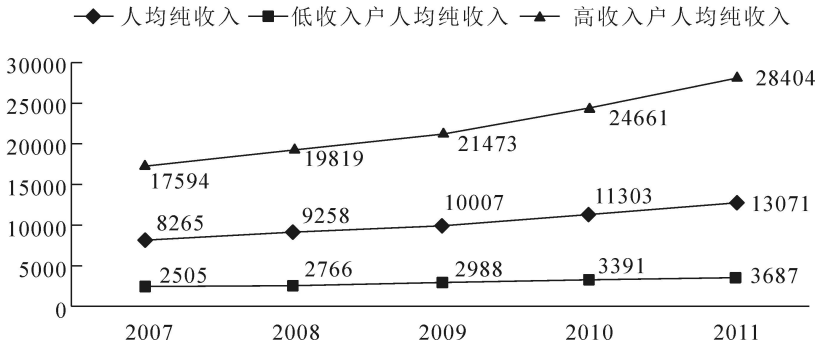

农村居民及高低收入户人均纯收入（单位：元）

2011 年农村家庭收入结构

单位：元

	平均	按人均纯收入等级分组				
		低收入户	次低收入户	中等收入户	次高收入户	高收入户
人均纯收入	13071	3687	8111	11582	15814	28404
人均工资性收入	6878	2309	4557	7089	9754	11439
人均家庭经营收入	4872	283	2727	3449	4921	14281
人均财产性收入	553	500	152	304	438	1510
人均转移性收入	767	595	676	740	701	1174

1．2011 年，农村居民高收入户人均纯收入的同比增长幅度约比低收入户高：

A．6 个百分点

B．9 个百分点

C．12 个百分点

D．15 个百分点

2．2011 年，农村居民高收入户的人均工资性收入约是低收入户的：

A．4.68 倍

B．4.95 倍

C．5.12 倍

D．5.37 倍

3．2008~2011 年，低收入户人均纯收入与上年相比增长最快的年份是：

A．2008 年

B．2009 年

C．2010 年

D．2011 年

4．2011 年低收入户与高收入户相比，收入结构中，相差最大的是：

A．人均工资性收入

B．人均家庭经营收入

C．人均财产性收入

D．人均转移性收入

5．下列说法不正确的一项是：

A．2007~2011 年，农村低收入户的人均纯收入与高收入户的差距呈扩大趋势

B．2011 年只有高收入户的人均转移性收入超过了农村家庭的人均转移性收入

C．2011 年各收入等级分组中，人均工资性收入占人均纯收入的比例均为最大

D．2011 年在低收入户中，人均家庭经营收入占人均纯收入的比例最低

材料 3

2016 年末，全国内河航道通航里程 12.71 万公里。等级航道 6.64 万公里，其中三级及以上航道 1.21 万公里，占总里程的 9.5%，比上年提高 0.4 个百分点。各等级内河航道通航里程分别为：一级航道 1342 公里，二级航道 3681 公里，三级航道 7054 公里，四级航道 10862 公里，五级航道 7485 公里，六级航道 18150 公里，七级航道 17835 公里。等外航道 6.07 万公里。各水系内河航道通航里程分别为：长江水系 64883 公里，珠江水系 16450 公里，黄河水系 3533 公里，黑龙江水系 8211 公里，京杭运河 1438 公里，闽江水系 1973 公里，淮河水系 17507 公里。

2011-2016 年全国内河航道通航里程

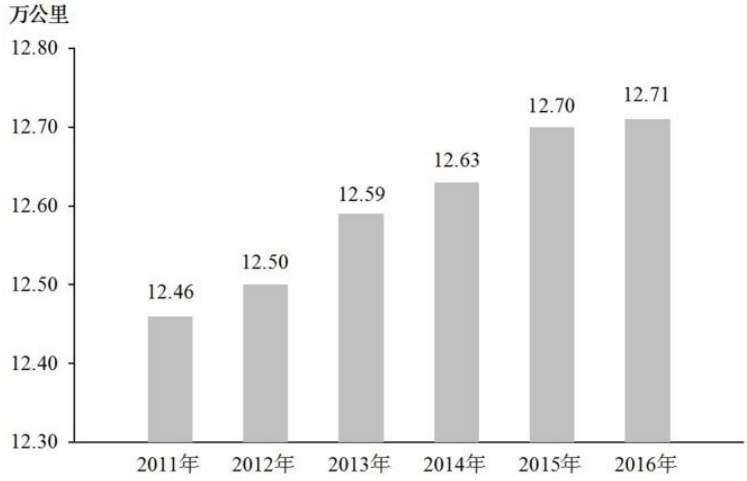

2016 年末，全国港口拥有生产用码头泊位 30388 个，比上年减少 871 个。其中，沿海港口生产用码头泊位 5887 个，减少 12 个；内河港口生产用码头泊位 24501 个，减少 859 个。全国港口拥有万吨级及以上泊位 2317 个，比上年增加 96 个。

其中，沿海港口万吨级及以上泊位 1894 个，增加 87 个；内河港口万吨级及以上泊位 423 个，增加 9 个。全国万吨级及以上泊位中，专业化泊位 1223 个，比上年增加 50 个；通用散货泊位 506 个，增加 33 个；通用件杂货泊位 381 个，增加 10 个。

2016 年全国港口万吨级及以上泊位数量

计量单位：个

泊位吨级	全国港口	比上年末增加	沿海港口	比上年末增加	内河港口	比上年末增加
合计	2317	96	1894	87	423	9
1~3 万吨级（不含 3 万）	814	21	637	18	177	3
3~5 万吨级（不含 5 万）	384	15	279	13	105	2
5~10 万吨级（不含 10 万）	757	29	628	28	129	1
10 万吨级及以上	362	31	350	28	12	3

1．2012-2015 年，全国内河航道通航里程增长幅度最大的是：

A．2012 年

B．2013 年

C．2014 年

D．2015 年

2．2015 年末，全国三级及以上航道通航里程约为：

A．0.98 万公里

B．1.04 万公里

C．1.16 万公里

D．1.26 万公里

3．2016 年末，长江水系内河航道通航里程约占各水系内河航道通航总里程的：

A．56.9%

B．62.5%

C．68.3%

D．75.6%

4．2016 年，下列哪种泊位数量同比增长最快？

A．全国港口万吨级及以上泊位

B．沿海港口万吨级及以上泊位

C．全国港口 10 万吨级及以上泊位

D．内河港口 10 万吨级及以上泊位

5．根据资料，下列表述不正确的是：

A．2015 年末，全国沿海港口生产用码头泊位数量不足全国港口生产用码头泊位总量的二成

B．2016 年末，全国内河航道通航里程中，等级航道占比超过一半

C．2016 年末，全国万吨级及以上泊位中，专业化泊位超过一半

D．2015 年末，全国港口 3 万吨级及以上泊位不足 1400 个

材料 4

2013 年，全国商品房销售面积 130551 万平方米，比上年增长 17.3%，增速比 1-11 月份回落 3.5 个百分点，比 2012 年提高 15.5 个百分点；其中，住宅销售面积增长 17.5%，办公楼销售面积增长 27.9%，商业营业用房销售面积增长 9.1%。商品房销售额 81428 亿元，增长 26.3%，增速比 1-11 月份回落 4.4 个百分点，比 2012 年提高 16.3 个百分点；其中，住宅销售额增长 26.6%，办公楼销售额增长 35.1%，商业营业用房销售额增长 18.3%。2013 年末，全国商品房待售面积 49295 万平方米，比 11 月末增加 2489 万平方米，比 2012 年末增加 12835 万平方米。其中，住宅待售面积比 11 月末增加 1696 万平方米，办公楼待售面积增加 156 万平方米，商业营业用房待售面积增加 346 万平方米。

2013 年东中西部地区房地产销售情况

地区	商品房销售面积		商品房销售额	
	绝对数（万平方米）	比上年增长（%）	绝对数（亿元）	比上年增长（%）
全国总计	130551	17.3	81428	26.3
东部地区	63476	19.3	49327	28.4
中部地区	35192	16.8	16525	26.9
西部地区	31883	14.1	15576	19.6

1．2011 年全国商品房销售面积约为多少亿平方米？

A．8.4

B．9.2

C．9.8

D．10.9

2．2013 年全国商品房单位面积的平均销售价格约比上年增长了：

A．4.4%

B．7.7%

C．11.1%

D．15.5%

3．与同年 11 月末相比，2013 年 12 月末全国住宅、办公楼和商业营业用房待售面积的增量之和约占商品房总待售面积增量的：

A．79%

B．88%

C．94%

D．100%

4．以下哪张统计图准确地表示了 2013 年东部、中部和西部地区商品房销售面积占当年全国总销售面积的比重？

A．

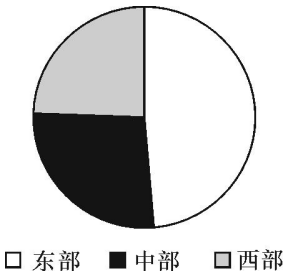

B．

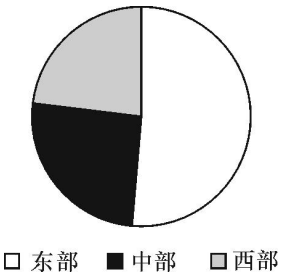

C．

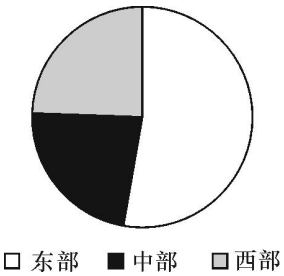

D. 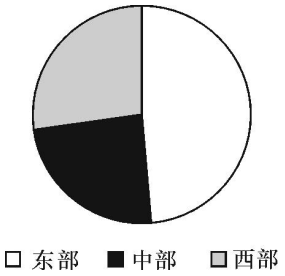

5．关于 2013 年房地产市场，能够从上述资料中推出的是：

A．12 月当月全国商品房销售额同比增速超过 30%

B．中部地区商品房销售单价超过 5000 元/平方米

C．东部地区商品房销售额占全国比重低于上年

D．平均每个月新增 1000 多万平方米待售商品房

第四组

材料 1

2013 年，全国共有工业企业法人单位 241 万个，从业人员 14025.8 万人，分别比 2008 年增长 26.6%和 19.5%。

2013 年，在工业企业法人单位中，采矿业 8.9 万个，比 2008 年下降 1.4%；制造业 225.2 万个；电力、热力、燃气及水生产和供应业 6.9 万个，比 2008 年下降 0.1%。在工业企业法人单位从业人员中，采矿业占 7.4%，制造业占 89.2%，电力、热力、燃气及水生产和供应业占 3.4%。

2013 年按登记注册类型分组的工业企业法人单位和从业人员

	企业法人单位（万个）	从业人员（万人）
合　计	241.0	14025.8
内资企业	229.3	11259.1
国有企业	2.0	478.5
集体企业	4.0	173.6
股份合作企业	2.4	62.2
联营企业	0.5	19.8
有限责任公司	32.1	3194.8
股份有限公司	3.0	847.6
私营企业	176.0	6272.2
其他企业	9.3	210.4
港、澳、台商投资企业	5.7	1343.1
外商投资企业	5.9	1423.6

1．2008 年，全国共有工业企业从业人员约为多少亿人？

A．1.0

B．1.2

C．1.3

D．1.5

2．2013 年，全国采矿业每个法人单位的平均从业人员数量约为多少人？

A．98

B．117

C．134

D．168

3．将不同类型企业按 2013 年平均每个法人单位从业人员数量从高到低排序，下列正确的是：

A．私营企业>股份合作企业>集体企业>其他企业

B．私营企业>集体企业>其他企业>股份合作企业

C．集体企业>私营企业>股份合作企业>其他企业

D．集体企业>股份合作企业>私营企业>其他企业

4．2008 年，全国制造业企业法人单位有约多少万个？

A．160

B．174

C．186

D．200

5．关于 2013 年全国工业企业情况，下列说法正确的是：

A．国有企业从业人员占全国内资企业从业人员的比重不足 4%

B．电力、热力、燃气及水生产和供应业从业人员超过 400 万人

C．港、澳、台商投资企业法人单位数量占全国工业企业法人单位的比重不足 2%

D．内资企业中企业法人单位个数少于 6 万的有 7 种类型

材料 2

2017 年上半年，全国居民人均可支配收入 12932 元，比上年同期名义增长 8.8%，其中，城镇居民人均可支配收入 18332 元，增长 8.1%（以下如无特别说明，均为同比名义增长）；农村居民人均可支配收入 6562 元，增长 8.5%。

按收入来源分，2017 年上半年，全国居民人均工资性收入 7435 元，增长 8.6%，占全国居民人均可支配收入的比重为 57.5%；人均经营净收入 2117 元，增长 5.9%，占全国居民人均可支配收入的比重为 16.4%；人均财产净收入 1056 元，增长 9.6%，占全国居民人均可支配收入的比重为 8.2%；人均转移净收入 2324 元，增长 11.9%，占全国居民人均可支配收入的比重为 18.0%。

2017年上半年全国居民消费支出主要数据

指标	水平（元）	增长率（%）
全国居民人均消费支出	8834	7.6
按消费类别分：		
食品烟酒	2678	5.6
衣着	668	2.4
居住	1919	8.3
生活用品及服务	535	6.5
交通通信	1211	9.6
教育文化娱乐	869	10
医疗保健	718	11.9
其他用品和服务	236	11.9

1．2016 年上半年，城镇居民人均可支配收入约为多少万元？

A．1.4

B．1.7

C．2.1

D．2.3

2．2017 年上半年，人均财产净收入比上年约增加多少元？

A．92

B．102

C．112

D．122

3．2016 年上半年，全国居民人均工资性收入占全国居民人均可支配收入的比重约为：

A．53.6%

B．57.6%

C．60.6%

D．63.6%

4．2017 年上半年，全国居民消费支出主要数据按消费类别分，其指标的增长率超过全国居民人均消费支出水平增长率的有几个？

A．4

B．5

C．6

D．7

5．关于 2017 年上半年全国居民收入和消费支出主要数据情况，下列说法正确的是：

A．生活用品及服务消费支出水平不足交通通信消费支出水平的二分之一

B．城镇居民人均可支配收入超过农村居民人均可支配收入的 3 倍

C．人均财产净收入同比增长率低于人均经营净收入同比增长率

D．居住消费支出同比增长率高于医疗保健消费支出同比增长率

材料 3

2020 年上半年，我国农产品进出口总额达 1159.0 亿美元。农产品进口额为 807.5 亿美元，同比增长 13.2%。受新冠肺炎疫情影响，我国农产品出口额同比下降 3.8%，为 351.5 亿美元。在我国的农产品进口中，除大洋洲农产品进口额同比下降 1.9 个百分点外，其余各大洲的农产品进口额均有所增加；欧洲国家或地区农产品进口额增幅最大，达 28.4%。农产品出口中，对亚洲国家或地区的出口额最高，达 229.7 亿美元，较 2019 年同期下降了 3.7 个百分点。

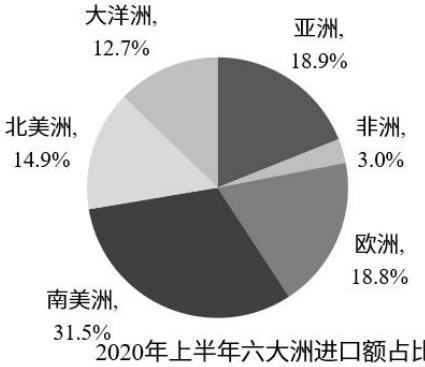

2020年上半年六大洲进口额占比

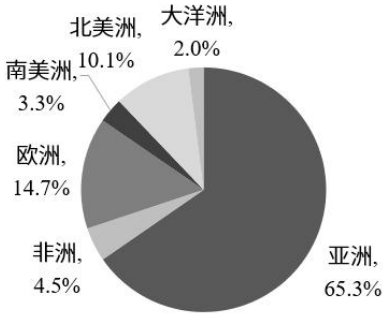

2020上半年六大洲出口额占比

随着我国居民饮食结构的调整，居民对肉类食品的需求量逐年增加。2020 年上半年畜类产品进口额同比增长 43.2%，对农产品进口额的增长贡献超 7 成。我国农产品出口最多的两大类别分别是食用蔬菜和水、海产品，合计出口额达 93.6 亿美元，占农产品出口总额的 26.6%。

2020 年上半年部分类别农产品进出口情况

类别	进口额（亿美元）	同比增长	出口额（亿美元）	同比增长
谷物	33.9	25.2%	5.5	-7.0%
食用蔬菜	9.6	4.0%	44.9	-4.8%
禽类产品	17.0	66.0%	11.7	-24.5%
畜类产品	222.0	43.2%	12.4	-16.6%
水、海产品	65.8	-6.4%	48.7	-19.6%
饮料、酒及醋	21.3	-23.9%	10.1	3.3%
食用水果及坚果	68.0	10.2%	22.9	24.4%
咖啡、茶、马黛茶及调味香料	5.3	20.1%	20.4	15.5%

1．2020 年上半年，我国农产品进出口额同比增长约：

A．2.5%

B．5.0%

C．7.5%

D．10.0%

2．2020 年上半年，我国水、海产品出口额同比减少约（　　）亿美元。

A．6

B．8

C．10

D．12

3．以下农产品类别中，2019 年上半年我国进出口总额最高的是：

A．食用蔬菜

B．禽类产品

C．饮料、酒及醋

D．咖啡、茶、马黛茶及调味香料

4．2019 年上半年，我国农产品进口额中欧洲国家或地区约占：

A．13.3%

B．16.6%

C．18.8%

D．21.1%

5．根据以上材料，关于我国 2020 年上半年农产品进出口情况，下列说法错误的是：

A．畜类产品进口额为谷物进口额的 6 倍以上

B．对亚洲国家或地区的出口额高于其农产品进口额

C．六大洲中只有南美洲国家或地区的进口额超过 160 亿美元

D．表格给出的农产品出口额合计约占我国农产品出口额的 30%

材料 4

2013~2018 年中国在线旅游收入状况

	旅游业总收入（万亿）	在线旅游收入（亿元）		
		交通预订	住宿预订	度假旅游预订
2013	2.95	1519.67	412.1	244.2
2014	3.38	2271.57	547.45	347.58
2015	4.13	3325.15	862.57	549.97
2016	4.69	5385.42	1251.42	757.4
2017	5.4	6389.65	1586.19	947.47
2018	5.07	6820.95	1881.49	1051.81

1．2018 年中国在线旅游收入约占旅游业总收入的：

A．12%

B．16%

C．20%

D．25%

2．2017 年中国在线旅游收入同比约增长多少万亿元？

A．0.15

B．0.20

C．0.25

D．0.30

3．中国在线旅游收入中，2014 年占中国旅游业总收入比重高于上年水平的包括：

A．仅在线交通预订

B．仅在线交通预订、在线住宿预订

C．仅在线交通预订、在线度假旅游预订

D．在线交通预订、在线住宿预订、在线度假旅游预订

4．以下折线图反映了 2014-2018 年间哪项收入同比增量的变化趋势？

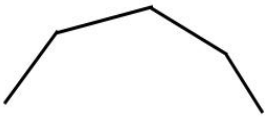

A．在线住宿预订

B．在线度假旅游预订

C．旅游业总体

D．在线交通预订

5．能够从上述资料推出的是：

A．2016 年中国在线交通预订收入同比增速快于上年水平

B．2014~2018 年中国旅游业总收入超过 25 万亿元

C．2014~2016 年中国旅游业总收入同比增速逐年递增

D．如果保持 2018 年同比增量，中国在线住宿预定收入将在 2023 年首次超 3000 亿元

第五组

材料 1

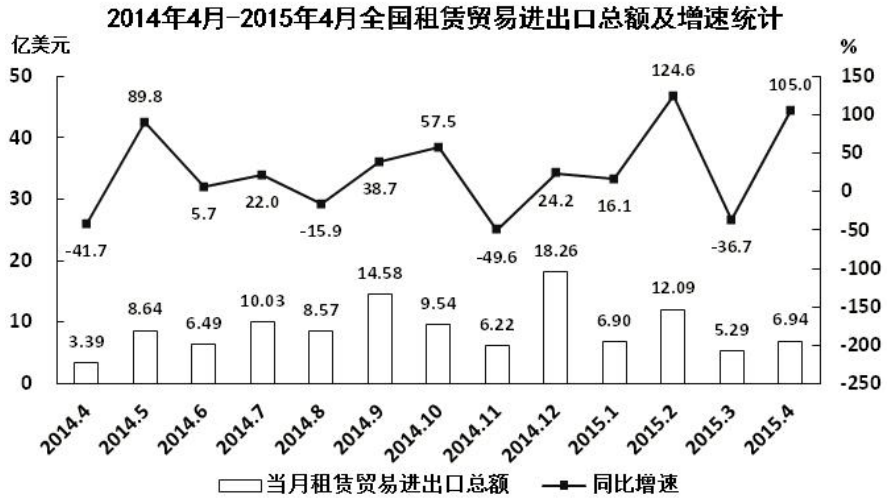

1．2014 年下半年全国租赁贸易进出口总额约为多少亿美元？

A．55

B．62

C．67

D．74

2．下列月份中，全国租赁贸易进出口总额环比增速最快的是：

A．2014 年 5 月

B．2014 年 9 月

C．2014 年 12 月

D．2015 年 2 月

3．2015 年一季度全国租赁贸易进出口总额较上一季度约：

A．增长了 30%

B．降低了 30%

C．增长了 40%

D．降低了 40%

4．2014 年 5 月~2015 年 4 月间，全国租赁贸易进出口总额及同比增速均高于上月

的月份有几个？

A．5

B．6

C．7

D．8

5．能够从上述资料中推出的是：

A．2013 年 8~9 月全国租赁贸易进出口总额超过 20 亿美元

B．2015 年 1~4 月全国租赁贸易进出口额月均超过 8 亿美元

C．2015 年 4 月全国租赁贸易进出口额比 2013 年 4 月翻了一番

D．图中全国租赁贸易进出口额同比下降的月份数占总月份数的$\frac{1}{3}$

材料 2

2018 年前三季度，S 省社会物流总额 35357.26 亿元，同比增长 6.4%，增速比上半年放缓 0.7 个百分点。其中，工业品物流总额 16636.15 亿元，同比增长 0.2%，增速比上半年放缓 2.1 个百分点；外部流入（含进口）货物物流总额 17357.31 亿元，同比增长 12.1%，增速比上半年加快 0.8 个百分点；农产品物流总额 875.06 亿元，同比增长 11.6%，增速比上半年加快 0.5 个百分点；单位与居民物品物流总额 457.86 亿元，同比增长 40.7%，增速比上半年放缓 3 个百分点；再生资源物流总额 30.88 亿元，同比下降 7.0%，降幅比上半年扩大 4.3 个百分点。

2018 年前三季度，S 省物流相关行业实现总收入 1912.8 亿元，同比增长 6.6%。其中：运输环节收入 1321.9 亿元，同比增长 6.0%；保管环节收入 226.2 亿元，同比增长 6.4%；邮政业收入 82.8 亿元，同比增长 16.7%；配送、加工、包装业收入 98.8 亿元，同比增长 6.4%。

2018 年前三季度，S 省社会物流总费用 2682.1 亿元，同比增长 6.3%，比上半年放缓 0.9 个百分点。其中：物流运输环节总费用 1854.6 亿元，同比增长 6.3%；保管环节总费用 612.4 亿元，同比增长 6.4%；管理环节总费用 214.9 亿元，同比增长 6.4%。

1．2018 年前三季度，S 省工业品物流总额同比增量约为同期社会物流总额同比增量的：

A．超过 30%

B．10%~30%之间

C．5%~10%之间

D．不到 5%

2．在工业品物流、外部流入（含进口）货物物流、农产品物流、单位与居民物品物流和再生资源物流中，2018 年前三季度物流总额占社会物流总额的比重高于上年水平的有几类？

A．4

B．3

C．2

D．1

3．2018 年前三季度，平均每万元社会物流总额产生的物流费用比上年同期：

A．上升了不到 1%

B．上升了 1%以上

C．下降了不到 1%

D．下降了 1%以上

4．将 2018 年前三季度 S 省物流相关行业不同类型的收入按照同比增量从高到低排列，以下正确的是：

A．运输收入＞保管收入＞邮政业收入＞配送、加工、包装业收入

B．运输收入＞配送、加工、包装业收入＞邮政业收入＞保管收入

C．运输收入＞保管收入＞配送、加工、包装业收入＞邮政业收入

D．运输收入＞邮政业收入＞配送、加工、包装业收入＞保管收入

5．关于 2018 年前三季度 S 省物流情况，能够从上述资料中推出的是：

A．农产品物流总额同比增长了 100 多亿元

B．物流运输环节收入同比增量高于该环节费用同比增量

C．外部流入（含进口）货物物流总额占社会物流总额的一半以上

D．配送、加工、包装业收入占物流相关行业总收入的比重超过 5%

材料 3

2017 年第一季度，某省农林牧渔业增加值 361.78 亿元元，比上年同期增长 5.9%，高于上年同期 0.2 个百分点。

具体情况如下：该省种植业增加值 119.21 亿元，比上年同期增长 8.2%，其中蔬菜种植面积 358.80 万亩，比上年同期增加 18.23 万亩，蔬菜产量 471.42 万吨，增长 7.5%；茶叶种植面积 679.53 万亩，比上年同期增加 19.79 万亩，茶叶产量 2.30 万吨，增长 19.49%。该省林业增加值 34.84 亿元，比上年同期增长 8.3%。该省畜牧业增加值 176.64 亿元，比上年同期增长 4.2%，增速比上年同期加快 2.1 个百分点。

其中生猪存栏增速由上年同期的下降 9.8%转为增长 3.1%，出栏增速由上年同期的下降 3.2%转为增长 3.3%；猪牛羊禽肉产量 67.80 万吨，比上年同期增长 3.1%；禽蛋产量 5.33 万吨，增长 1.0%；牛奶产量 1.40 万吨，增长 6.1%。该省渔业增加值 9.22 亿元，比上年同期增长 4.5%。全省水产品产量 7.68 万吨，比上年同期增长 4.7%，其中，养殖水产品产量 7.3 万吨，增长 4.7%。

该省农林牧渔服务业增加值 21.87 亿元，比上年同期增长 3.8%。

1．2015 年第一季度，该省农林牧渔业增加值于下列哪一项最为接近？

A．320 亿元

B．340 亿元

C．360 亿元

D．380 亿元

2．2016 年第一季度，该省平均每亩蔬菜种植地产出蔬菜多少吨？

A．1.26

B．1.29

C．1.31

D．1.35

3．2017 年第一季度，该省生猪出栏增速比上年同期：

A．加快 12.9%

B．加快 6.7%

C．加快 6.5%

D．加快 0.1%

4．2017 年第一季度，该省占农林牧渔业增加值比重超过三成的包括：

A．种植业、渔业

B．林业、畜牧业

C．种植业、畜牧业

D．农林牧渔服务业、林业

5．能够从上述资料中推出或计算出的是：

A．2017 年该省农林牧渔服务业增加值

B．2016 年第一季度全国农林牧渔业增加值

C．2017 年第一季度该省水产品产量中非养殖水产品产量与 2016 年第一季度持平

D．若 2017 年该省林业增加值每个季度的环比增长率不低于 10%，则 2017 年该省林业增加值将超过 150 亿元

材料 4

2016 年，我国全年完成邮电业务收入总量 43344 亿元，比上年增长 52.7%。其中，邮政业务收入 7397 亿元，增长 45.7%；电信业务总量 35948 亿元，增长 54.2%。邮政业全年完成邮政函件业务 36.2 亿件，包裹业务 0.3 亿件，快递业务量 312.8 亿件；快递业务收入总量 3974 亿元。电信业全年新增移动电话交换机容量 7318 万户，达到 218384 万户。2016 年全国电话用户总数 152856 万户（电话包括固定电话和移动电话两种），其中移动电话用户 132193 万户。移动电话普及率上升至 96.2 部/百人。固定互联网宽带接入用户 29721 万户，比上年增加 3774 万户，其中固定互联网光纤宽带接入用户 22766 万户，比上年增加 7941 万户；移动宽带用户 94075 万户，增加 2340 万户，移动互联网接入流量 93.6 亿 G，比上年增长 123.7%。互联网上网人数 7.31 亿人，增加 4299 万人，其中手机上网人数 6.95 亿人，增加 7550 万人，互联网普及率达到 53.2%，其中农村地区互联网普及率达到 33.1%。软件信息技术服务业完成软件业务收入 48511 亿元，比上年增长 14.9%。

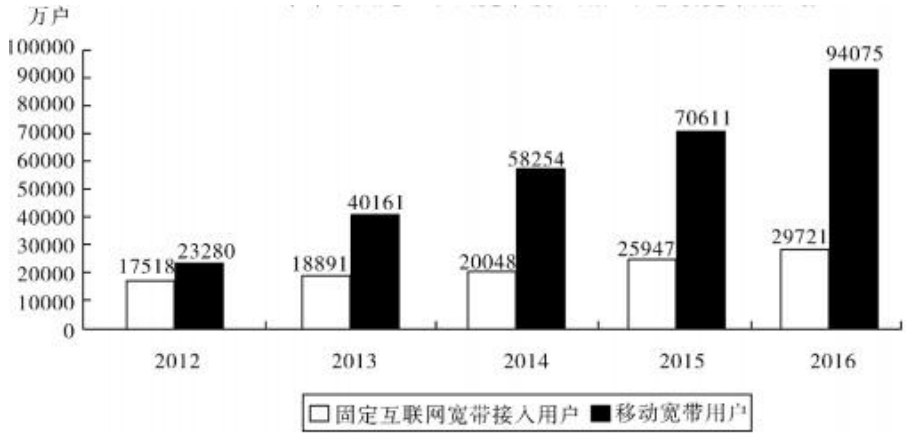

2012~2016 年年末固定互联网宽带接入用户和移动宽带用户数

1．2016 年我国快递业务收入总量占邮电业务收入总量的比重为：

A．8.17%

B．9.17%

C．10.17%

D．11.17%

2．2013~2016 年期间，我国移动宽带用户数同比增长最快的年份是：

A．2013 年

B．2014 年

C．2015 年

D．2016 年

3．2012~2016 年期间，我国固定互联网宽带接入用户的平均数是：

A．18425 万户

B．22425 万户

C．25425 万户

D．27425 万户

4．2016 年末，全国固定电话用户占电话用户总数的比重为：

A．43.52%

B．33.52%

C．23.52%

D．13.52%

5．关于我国邮电业务情况的说明，下列说法正确的是：

A．2015 年末，我国固定互联网光纤宽带接入用户与移动宽带用户的差额低于 50000 户

B．2016 年固定互联网宽带接入用户同比增长率高于移动宽带用户增长率

C．2016 年末，我国使用固定电话的总人数比移动电话的多

D．2016 年我国城市地区互联网普及率已超过一半

第六组

材料 1

2017 年 1~12 月，全国内燃机累计销量 5645.38 万台，同比增长 4.11%，累计完成功率 266879.47 万千瓦，同比增长 9.15%，其中柴油内燃机功率同比增长 34%。

从燃料类型来看，柴油机增幅明显高于汽油机，柴油机累计销量 556 万台，同比增长 13.04%；汽油机累计销量 5089 万台。

从配套市场来看，乘用车用、摩托车用、园林机械用、发电机组用内燃机平稳增长，累计销量分别为 2205.40 万台、2030.12 万台、341.29 万台和 170.70 万台，同比增长分别为 2.99%、2.09%、1.68%和 1.73%；商用车用、农业机械用、工程机械用内燃机增长明显，累计销量分别为 398.57 万台、381.69 万台和 73.84 万台，同比增长分别为 13.02%、11.41%和 56.53%；船用内燃机累计销量 2.40 万台，同比下降 2.3%；通用机械用内燃机累计销量 41.37 万台，同比下降 6.59%。

1．2016 年，我国销售的内燃机平均功率约为：

A．35 千瓦

B．45 千瓦

C．55 千瓦

D．65 千瓦

2．2017 年，汽油内燃机累计销量同比增速：

A．低于-4%

B．在-4%-0%之间

C．在 0%-4%之间

D．超过 4%

3．2017 年 1～12 月，内燃机销量环比下跌的月份有几个？

A．3

B．4

C．5

D．6

4．从配套市场来看，与上年相比，2017 年销量变化最大的是：

A．乘用车用内燃机

B．商用车用内燃机

C．摩托车用内燃机

D．农业机械用内燃机

5．能够从上述资料中推出的是：

①2016 年 1~12 月柴油内燃机累计完成功率

②2017 年第一季度内燃机累计销量的同比增速

③2016 年园林机械用内燃机累计销量所占比重

A．仅②

B．仅②③

C．仅①③

D．①②③

材料 2

2016 年全国海洋生产总值 70507 亿元，比上年增长 6.8%，海洋生产总值占国内生产总值的 9.5%。其中，海洋第一产业增加值 3566 亿元，第二产业增加值 28488

亿元，第三产业增加值 38453 亿元，分别比上年增长 8.3%、3.6%和 13.5%。

分区域看，2016 年环渤海地区海洋生产总值 24323 亿元，占全国海洋生产总值的比重为 34.5%，比上年回落了 0.8 个百分点；长江三角洲地区海洋生产总值 19912 亿元，占全国海洋生产总值的比重为 28.2%，比上年回落了 0.2 个百分点；珠江三角洲地区海洋生产总值 15895 亿元，占全国海洋生产总值的比重为 22.5%，比上年提高了 0.3 个百分点。

2016年我国海洋生产总值分类别统计情况

	总量（亿元）	增速（%）
海洋生产总值	70507	6.8
海洋产业	43283	8.8
主要海洋产业	28646	6.9
海洋科研教育管理服务业	14637	12.8
海洋相关产业	27224	X

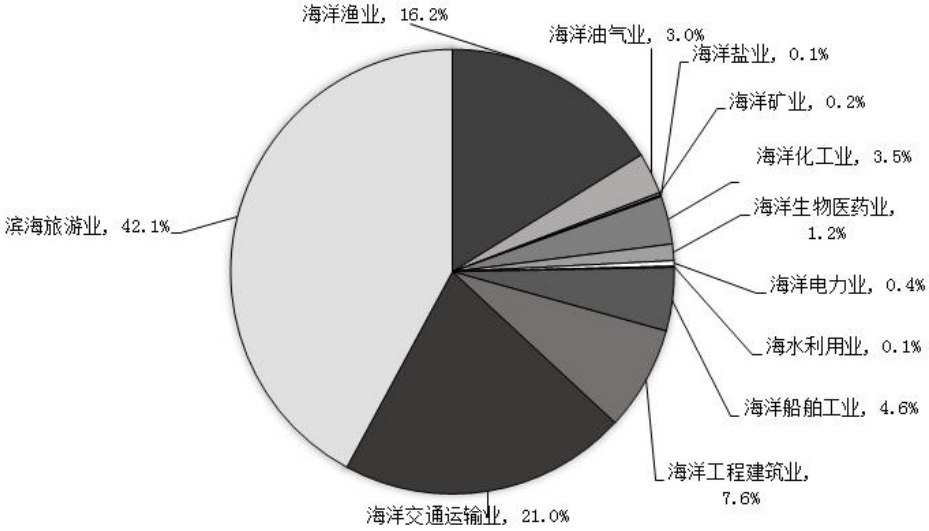

2016年我国主要海洋产业增加值构成图

1．2016 年国内生产总值为多少亿元？

A．742178.9

B．736842.1

C．103686.8

D．73684.2

2．2015 年环渤海地区海洋生产总值约为珠江三角洲地区的多少倍？

A．1.25

B．1.39

C．1.59

D．无法计算

3．表格中“x”的值应为多少？

A．3.8

B．4.8

C．6.8

D．7.8

4．2016 年在我国主要海洋产业增加值中，排名第三的产业增加值比排名倒数第三的多多少倍？

A．81

B．80

C．40.5

D．39.5

5．下列说法不正确的是：

A．2016 年海洋第二产业增加值的增长量大于第一产业

B．2016 年海洋科研教育管理服务业同比增长量超过 1600 亿元

C．2016 年长江三角洲地区海洋生产总值同比增速小于 6.8%

D．2016 年海洋油气业增加值 2000 多亿元

材料 3

2013 年二季度，我国税收月收入同比增速逐步提高，分别为 7.9%、8.3%和 12.9%。截至 2013 年 6 月，全国税收总收入完成 59260.61 亿元，同比增长 7.9%，较上年同期回落 1.9 个百分点。其中，国内增值税、企业所得税同比分别增长 6.6%和 14.2%，较上年同期增速分别回落 1.5 和 3.1 个百分点；房产税同比增长 11%，比上年同期增速回落 19.1 个百分点；进口货物增值税消费税和关税同比分别下降 17.1%和 16%，比上年同期增速分别回落 24.5 和 22.9 个百分点。

2013 年 1-6 月全国主要税种收入表(单位：亿元)

税目	收入	比上年同期增收
企业所得税	14963.38	1857.07
国内增值税	14319.5	887.11
营业税	8845.14	1007.2
进口货物增值税消费税	6382.82	-1313.78
国内消费税	4353.49	150.93
个人所得税	3630.79	359.1
契税	1946.04	554.07
车辆购置税	1236.7	150.03
关税	1212.1	-230.9
城镇土地使用税	910.66	67.44
房产税	822.3	81.7
证券交易印花税	223.39	47.6
出口货物退增值税消费税	-5300.86	15.5

1．2012 年 1-6 月全国税收总收入为：

A．52973.28 亿元

B．54921.79 亿元

C．56938.68 亿元

D．63942.19 亿元

2．2013 年上半年，房产税、城镇土地使用税及契税等三项增收之和占全国税收增收比重为：

A．1.2%

B．6.2%

C．11.2%

D．16.2%

3．2011 年 1—6 月全国关税收入约：

A．1300 亿元

B．1350 亿元

C．1380 亿元

D．1540 亿元

4．2013 年上半年与上年同期相比，下面四个税种中增速最快的税种是：

A．契税

B．国内增值税

C．出口货物退增值税消费税

D．企业所得税

5．下列说法与资料相符合的有几个？

①2013 年第一季度我国税收总收入同比增速低于 7.9%

②2013 年我国税收总收入预计可以达到 118520 亿元

③若 2013 年上半年进口货物增值税消费税维持上年同期水平，那么，2013 年上半年我国税收总收入同比增长将比 2012 年提高约 0.5 个百分点

④2013 年我国上半年企业所得税、国内增值税两项之和超过同期税收总收入的 50%

A．0

B．1

C．2

D．3

材料 4

2016 年全国餐饮收入 35799 亿元，同比增长 10.8%，餐饮收入占社会消费品零售总额的比重为 10.8%。2016 年全社会餐饮业经营单位为 365.5 万个，同比下降 8.2%；从业人数为 1846.0 万人，同比增长 5.7%。

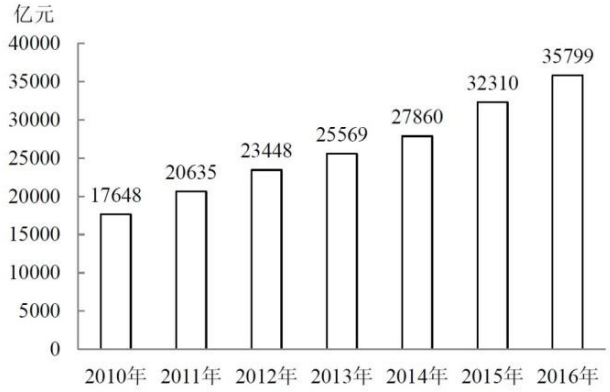

2010 ～2016 年全国餐饮收入

1．2016 年社会消费品零售总额约为多少万亿元？

A．27

B．33

C．39

D．45

2．2016 年全社会餐饮业平均每个经营单位的从业人数比上年约：

A．减少了 2%

B．减少了 15%

C．增加了 2%

D．增加了 15%

3．2011~2016 年间，全国餐饮收入同比增量超过 3000 亿元的年份有几个？

A．2

B．3

C．4

D．5

4．2016 年全国餐饮收入约相当于“十二五”（2011~2015 年）期间年平均值的多少倍？

A．1.2

B．1.4

C．1.6

D．1.8

5．能够从上述资料中推出的是：

A．2016 年平均每个餐饮业经营单位创造的餐饮收入超过 100 万元

B．2016 年餐饮业经营单位从业人员同比增长了 200 万人以上

C．2016 年全国餐饮收入比 2010 年翻了一番以上

D．2013 年全国餐饮收入同比增速超过 10%

第七组

材料 1

2011 年我国城乡居民人均文化消费比 2002 年分别增长 170.7%和 251.1%，增速分别快于人均消费支出 19 和 66 个百分点。2011 年城乡居民文化消费占消费支出的比重分别为 7.3%和 3.2%，比 2002 年分别提高 0.5 和 0.6 个百分点。

2003～2011年城乡居民文化消费相关数据

年份	城镇居民			农村居民				
	人均可支配收入（元）	人均消费支出（元）	人均文化消费（元）	人均纯收入（元）	人均消费支出		人均文化消费	
					支出水平（元）	增速（%）	消费水平（元）	增速（%）
2003	8472	6511	420	2622	1943	5.9	53	12.8
2004	9422	7182	474	2936	2185	12.5	59	11.3
2005	10493	7943	526	3255	2555	16.9	68	15.3
2006	11759	8697	591	3587	2829	10.7	74	8.8
2007	13786	9997	691	4140	3224	14.0	84	13.5
2008	15781	11243	736	4761	3661	13.6	93	10.7
2009	17175	12265	827	5153	3993	9.1	108	16.1
2010	19109	13471	966	5919	4382	9.7	126	16.7
2011	21810	15161	1102	6977	5221	19.1	165	31.0

1．与 2006 年相比，2011 年我国农民人均纯收入约上升了：

A．95%

B．166%

C．195%

D．266%

2．表中农村居民人均文化消费支出占消费支出比重高于上年的有几年？

A．2

B．3

C．4

D．5

3．表中农民人均纯收入和城镇居民人均可支配收入差距最小的一年，城镇居民和农村居民的人均文化消费之比约为：

A．7.0：1

B．7.2：1

C．7.9：1

D．8.2：1

4．2002 年我国城镇居民人均消费支出约为多少万元？

A．0.5

B．0.6

C．0.8

D．1.0

5．以下说法正确的是：

A. 表中农村居民人均消费支出增速与人均文化消费增速最低的年份是同一年

B．表中每年城镇居民人均消费支出均比上一年增长千元以上

C．2003 年城镇居民人均文化消费占人均消费支出的比重接近 5%

D．2004 年农村居民人均纯收入的增幅超过 10%

材料 2

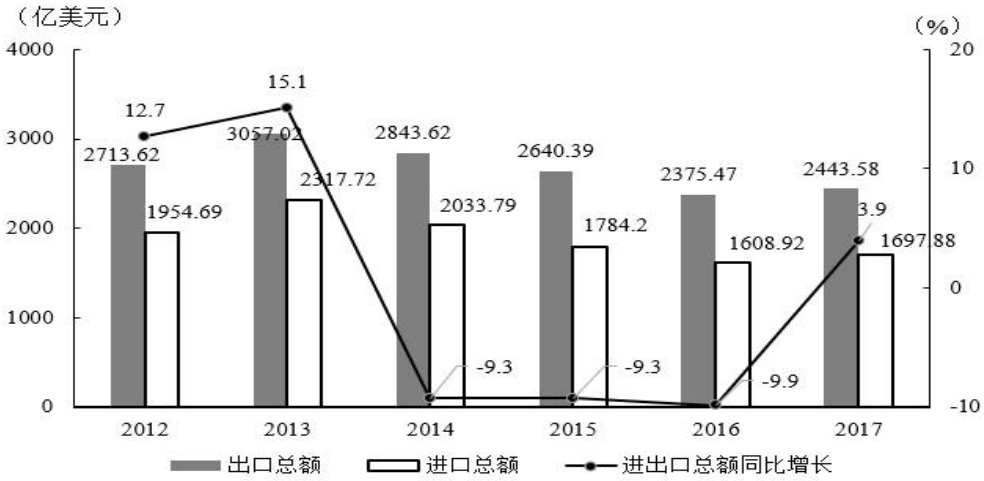

2012—2017年深圳市进出口情况

1．2011 年，深圳市进出口总额为（　　）亿美元。

A．4877.41

B．4668.31

C．4142.24

D．3984.39

2．2012—2017 年，深圳市进出口贸易顺差最大的年份是：

A．2012

B．2014

C．2015

D．2017

3．2012—2017 年，深圳市进出口总额同比增幅最大的年份和同比减幅最大的年份相比，其进口总额相差（　　）亿美元。

A．1390.35

B．982.01

C．708.80

D．681.55

4．2012—2017 年，深圳市进口总额的年均增长率约为：

A．－2.8%

B．－6.3%

C．－10.0%

D．－13.2%

5．根据上图，下列说法正确的是：

A．2013-2017 年，深圳市进出口总额呈先升后降的趋势

B．2013 年深圳市出口总额是 2017 年进口总额的 2 倍多

C．2013-2017 年，深圳市进出口总额的同比增速均高于本年出口总额的同比增速

D．2017 年，深圳市进出口总额同比增加 157.07 亿美元

材料 3

智能机器人产业是 G 省战略性新兴产业之一。2020 年前三季度，G 省智能机器人产业纳入规模以上工业统计的法人单位共 140 家，完成总产值 306.90 亿元，占全部规模以上工业产值的 0.3%，同比增长 29.8%，增速高于全部规模以上工业

产值 32.8 个百分点；前三季度平均用工人数 3.12 万人，同比增长 8.6%。

2020 年前三季度 G 省智能机器人产业四大行业发展情况

行业名称	企业个数	总产值（亿元）	同比增长
工业机器人制造业	95	76.88	57.4%
特殊作业工业机器人制造业	4	2.77	163.0%
智能无人飞行器制造业	17	201.07	31.7%
服务消费机器人制造业	24	26.18	- 22.8%

2020 年前三季度，G 省智能机器人产业实现营业收入 326.62 亿元，同比增长超 40%，四大行业营业收入均实现正增长，经济效益好于全部规模以上工业企业。

2020 年前三季度 G 省智能机器人产业四大行业效益情况

行业名称	营业收入（亿元）	同比增速	利润总额（亿元）
工业机器人制造业	48.62	27.5%	- 8.61
特殊作业工业机器人制造业	1.07	118.4%	0.22
智能无人飞行器制造业	233.07	46.0%	40.74
服务消费机器人制造业	43.86	40.3%	- 0.9

1．2020 年前三季度，G 省智能机器人产业中，四大行业总产值的同比增量排序正确的是：

①工业机器人制造业　　②特殊作业工业机器人制造业

③智能无人飞行器制造业　　④服务消费机器人制造业

A．①＞③＞②＞④

B．④＞②＞①＞③

C．③＞④＞②＞①

D．③＞①＞②＞④

2．2020 年前三季度，G 省下列行业中，平均每个企业产值最高的是：

A．工业机器人制造业

B．特殊作业工业机器人制造业

C．智能无人飞行器制造业

D．服务消费机器人制造业

3．2020 年前三季度，G 省智能机器人产业的总体利润率（利润率=利润总额/营业收入）约为：

A．－0.6%

B．4.6%

C．9.6%

D．14.6%

4．2020 年前三季度，G 省工业机器人制造业营业收入同比增长约（　　）亿元。

A．5

B．10

C．15

D．20

5．根据所给资料，下列说法不正确的是：

A．2020 年前三季度，G 省全部规模以上工业产值同比增长 3%

B．2019 年前三季度，G 省智能机器人产业营业收入超 200 亿元

C．2019 年前三季度，G 省智能机器人产业平均用工人数为 2.87 万人

D．2020 年前三季度，G 省智能机器人产业中利润率最高的行业是特殊作业工业机器人制造业

材料 4

近年来，A 省新登记市场主体保持较快增长势头。全省实有各类市场主体从 2015 年的 775.95 万户增长到 2018 年的 1146.13 万户。2018 年，全省新登记市场主体 229.74 万户，日均新登记市场主体 6294 户，同比增长 17.82%。

2018 年，全省新登记企业最集中的三个行业分别是批发和零售业、租赁和商务服务业、制造业，新登记企业数分别为 36.14 万户、15.19 万户、9.25 万户，分别同比增长 0.23%、增长 22.98%、下降 6.8%。

2015-2018 年 A 省新登记市场主体情况（单位：万户）

项目	2018 年	2017 年	2016 年	2015 年
新登记市场主体	229.74	195.00	161.58	138.76
一、新登记企业	97.80	90.41	79.05	61.10
1.第一产业新登记企业	0.59	0.59	0.57	0.48
2.第二产业新登记企业	14.42	14.42	11.40	9.20
3.第三产业新登记企业	82.78	75.40	67.08	51.42
二、新登记个体工商户	131.56	104.10	82.04	77.11
三、新登记农民专业合作社	0.38	0.49	0.49	0.55

1．2015—2018 年，A 省实有各类市场主体数增长了约（　　）万户。

A．170.2

B．270.2

C．370.2

D．470.2

2．2018 年，A 省新登记市场主体中，数量较上年增幅最大的是：

A．第一产业新登记企业

B．第二产业新登记企业

C．第三产业新登记企业

D．新登记个体工商户

3．2015—2018 年，A 省新登记市场主体数年均增长约（　　）万户。

A．15.1

B．23.2

C．30.3

D．36.4

4．2018 年，租赁和商务服务业新登记企业数较上年增加约（　　）万户。

A．2.8

B．3.8

C．4.8

D．5.8

5．根据材料，以下说法不正确的是：

A．2015—2018 年，A 省新登记企业数增长超50%

B．2017 年，A 省日均新登记市场主体少于 4000 户

C．2017 年，A 省新登记企业最集中的行业是批发和零售业

D．2015 年，A 省新登记农民专业合作社多于第一产业新登记企业材料一

第八组

材料 1

根据海关统计，2014 年，我国共出口铁路设备 267.7 亿元，比上年（下同）增长 22.6%。统计显示，2014 年我国铁路设备出口呈现 5 个特点：

一是出口呈现快速增长态势。2014 年，我国铁路设备出口整体呈现快速增长态势，其中，有 9 个月同比增速保持在 20%以上。12 月当月出口铁路设备 28.1 亿元，同比增长 42.3%，环比增长 22%。

二是主要出口东盟、阿根廷、澳大利亚和美国。2014 年，我国对东盟出口铁路设备 38.4 亿元，增长 1.2 倍；对阿根廷出口 34.5 亿元，增长 45.9%；对澳大利亚出口 33.5 亿元，减少 40%；对美国出口 31.7 亿元，增长 47.2%；对上述四者出口合计占同期我国铁路设备出口总值的（下同）51.6%。此外，在其他前十大市场中，对巴西、南非和埃塞俄比亚出口倍增。

三是主要出口品种为铁道及电车道机车、车辆。2014 年，我国出口铁道及电车道机车、车辆 154.5 亿元，增长 13.3%，占 57.7%，其中，出口铁道及电车轨道机动客、货、敞车 77.7 亿元，增长 47%。同期，出口铁道及电车道机车、车辆零件 66.8 亿元，增长 34.2%，占 24.9%；出口钢轨 25.8 亿元，增长 61.8%；出口轨道固定装置和机械交通管理等设备及零附件 8.3 亿元，增长 13.3%。

四是加工贸易方式出口占比过半，一般贸易方式出口大幅增长。2014 年，以加工贸易方式出口铁路设备 146.2 亿元，增长 12.9%，占 54.6%；以一般贸易方式出口 111.3 亿元，增长 35.8%，占 41.6%。此外，以对外承包工程出口货物方式出口 8.1 亿元，增长 30.4%。

五是以国有企业出口为主，外商投资企业出口大幅增长。2014 年，我国国有企业出口铁路设备 187.5 亿元，增长 18.2%，占 70.1%；外商投资企业出口 41 亿元，增长 46.6%，占 15.3%；民营企业出口 39.2 亿元，增长 23.3%，占 14.6%。

1．2014 年 12 月我国铁路设备出口值约占全年的：

A．7.4%

B．8.6%

C．9%

D．10.5%

2．下列关于 2014 年我国铁路设备各出口品种增长率的对比关系中，正确的是：

A．铁道及电车轨道机动客、货、敞车＜铁道及电车道机车、车辆零件

B．轨道固定装置和机械交通管理等设备及零附件＞钢轨

C．铁道及电车道机车、车辆零件＜轨道固定装置和机械交通管理等设备及零附件

D．铁道及电车道机动车、货、敞车＜钢轨

3．2013 年，我国铁路设备对东盟、阿根廷、澳大利亚和美国四者中出口值最高的是：

A．东盟

B．阿根廷

C．澳大利亚

D．美国

4．2013 年，我国铁路设备出口方式中，以加工贸易方式出口比以一般贸易方式出口：

A．约多 35 亿元

B．约多 47.5 亿元

C．约少 35 亿元

D．约少 47.5 亿元

5．根据材料，以下说法错误的是：

A．2013 年，我国铁路设备出口中，民营企业所占比例高于外商投资企业

B．2014 年 12 月我国铁路设备出口值高于 2014 年 11 月

C．2013 年，我国铁路设备出口值超过 200 亿元

D．2014 年，我国铁路设备出口方式中，一般贸易方式出口增长率最低

材料 2

近四次人口普查的城乡年龄结构差异

年份	少儿人口比例		劳动年龄人口比例		老年人口比例		城镇人口占总人口比例
	城镇	农村	城镇	农村	城镇	农村	
1982 年	26.69	35.38	68.76	59.62	4.54	5.00	21.13
1990 年	22.33	29.59	72.57	64.67	5.10	5.74	26.41
2000 年	18.42	25.52	75.16	66.89	6.42	7.50	36.22
2010 年	14.08	19.16	78.12	70.78	7.80	10.06	47.50

注：少儿人口指 0-14 岁人口；劳动年龄人口指 15-64 岁人口；老年人口指 65 岁以上人口。

建国以来六次人口普查65岁及以上老年人口规模及比例变化

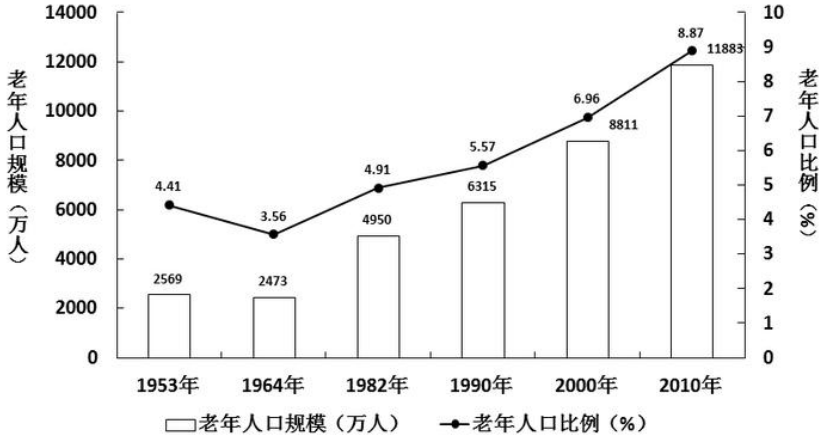

1．1964 年我国总人口数比 1953 年多：

A．14.8%

B．19.2%

C．10065 万人

D．14089 万人

2．1990 年，我国城镇人口约为（　　）万人。

A．21302

B．25498

C．29942

D．36795

3．从近四次人口普查的城乡年龄结构看，比例逐次下降的年龄段人口是：

A．少儿人口

B．劳动年龄人口

C．老年人口

D．无从得知

4．老年抚养比是指老年人口数量与劳动年龄人口数量的比值，2010 年，我国农村的老年抚养比约为：

A．10.0%

B．12.5%

C．14.2%

D．17.3%

5．根据材料，关于近四次人口普查的以下说法，不正确的有：

①城乡的少儿人口规模均出现逐次下降

②2000 年，农村老年人口已经突破 6000 万人

③劳动年龄人口比例的城乡差距逐次缩小

④城镇的老年抚养比值逐次增长

A．②

B．①②

C．③④

D．①③

材料 3

2010 年，浙江省全社会固定资产投资 12488 亿元，比上年增长 16.3%，其中限额以上投资 11564 亿元，增长 16.7%；限额以上非国有控股投资 7615 亿元，增长 21.6%，占全部限额以上投资的 65.9%。

在限额以上固定资产投资中，第一产业投资 60.3 亿元，比上年增长 5.3%；第二产业投资 4698 亿元，增长 9.6%，其中工业投资 4650 亿元，增长 9.3%；第三产业投资 6806 亿元，增长 22.4%。

全年限额以上投资项目 31780 个，比上年增长 6.2%，其中，新开工项目 16963

个，增长 6.6%。

全年房地产开发投资 3030 亿元，比上年增长 34.4%。商品房销售额 4449 亿元，增长 2.6%。

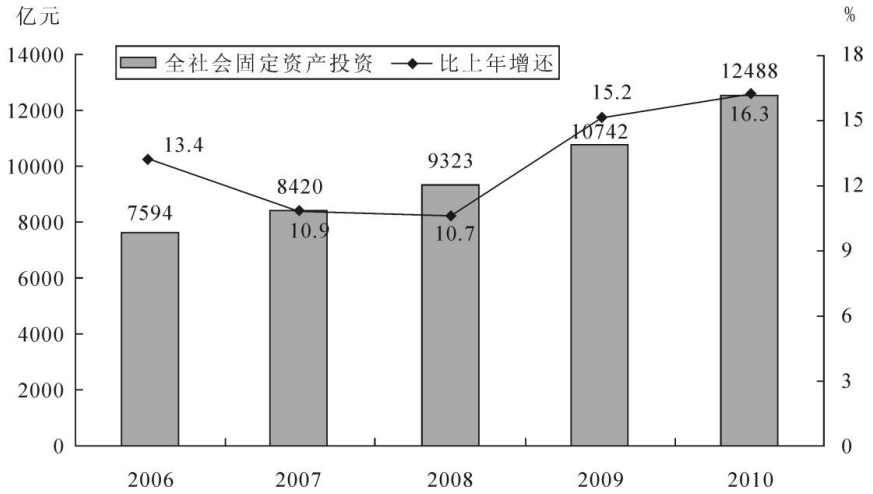

2006~2010 年浙江省固定资产投资及其增长速度

1．2009 年浙江省限额以上固定资产投资中，国有控股投资约为：

A．3647 亿元

B．6262 亿元

C．2985 亿元

D．3949 亿元

2．2006~2010 年，浙江省全社会固定资产投资增加额最少的是：

A．2006 年

B．2007 年

C．2008 年

D．2009 年

3．2010 年浙江省限额以上固定资产投资的三次产业中，同比增长率最大的产业其 2009 年占限额以上固定资产投资的比重约为：

A．56.1%

B．43.2%

C．58.9%

D．60.2%

4．2010 年，浙江省房地产开发投资约比 2009 年增加：

A．113 亿元

B．589 亿元

C．866 亿元

D．776 亿元

5．根据以上资料，下列说法正确的是：

A．2010 年，浙江省限额以上固定资产投资占全社会固定资产投资的比重比去年下降了

B．2006~2010 年，浙江省全社会固定资产投资的年均增长率小于 10%

C．2010 年，浙江省全社会固定资产投资项目中，非新开工项目有 14817 个

D．2009 年，浙江省商品房销售额大于房地产开发投资额

材料 4

截至 2015 年 5 月底，北京市朝阳区规模以上文化创意产业单位共有 1777 家，总资产达到 1534.6 亿元，同比增长 19.6%；1~5 月累计实现收入 521.6 亿元，同比增长 20.4%；从业人员平均人数为 16.4 万人，同比增长 0.8%；单位数量、资产总计、收入合计、从业人员平均人数在全市规模以上文化创意产业中的比重分别达到 23.6%、19.9%、23.9%和 20.3%。

2015 年 1~5 月朝阳区规模以上文化创意产业主要指标分行业分组数据

产业类别	单位数（个）	资产（亿元）	同比（%）	收入（亿元）	同比（%）	从业人员平均人数（人）	同比（%）
文化艺术	68	43.7	8.6	7.6	11.8	6223	-1.5
新闻出版	193	134.8	11.6	27.0	7.6	17203	-2.1
广播、电视、电影	47	69.2	45.1	13.3	43.4	3351	-4.6
软件、网络及计算机服务	299	262.1	-0.4	103.5	11.7	41946	2.0
广告会展	538	233.0	20.4	115.5	33.0	21626	2.0

艺术品交易	38	29.5	24.1	13.8	32.3	2818	6.4
设计服务	106	27.4	32.3	9.5	19.8	14152	4.6
旅游、休闲娱乐	263	194.4	8.9	68.7	23.6	17992	-1.2
其他辅助服务	225	540.5	37.0	162.9	17.3	38419	0.4

1．2015 年 1~5 月北京市规模以上文化创意产业累计实现收入约为多少亿元？

A．521.6

B．2182.4

C．2569.5

D．7711.6

2．2014 年 1~5 月朝阳区规模以上文化创意产业中，收入位居第二的产业是：

A 其他辅助服务业

B．广播、电视、电影业

C．广告会展业

D．软件、网络及计算机服务

3．2015 年 1~5 月朝阳区广告会展从业人员平均人数在全市文化创意产业从业人员平均人数中所占的比重约为：

A．13.2%

B．7.5%

C．5.2%

D．2.7%

4．表中 2015 年 1~5 月，朝阳区从业人员人均创收水平最高的行业是：

A．广播、电视、电影

B．广告会展

C．艺术品交易

D．旅游、休闲娱乐

5．下列说法中，正确的一项是：

A．2015 年 1~5 月朝阳区旅游、休闲娱乐业单位数仅次于广告会展业

B．2015 年 1~5 月朝阳区有 5 个产业的从业人员平均人数比上年同期有所下降

C．与上年同期相比，2015 年 1~5 月朝阳区广播、电视、电影业的资产增长速度最快

D．与上年同期相比，2015 年 1~5 月朝阳区艺术品交易业从业人员平均人数增长量最大

第九组

材料 1

2017 年第四季度，人力资源部门对东、中、西三大区域共 95 个城市的公共就业服务机构市场供求信息进行了统计分析，部分数据如下：

总体而言，用人单位通过公共就业服务机构招聘各类人员约 433.7 万人，进入市场的求职者约 354.2 万人，岗位空缺与求职人数的比率约为 1.22，比去年同期上升 0.09，市场需求略大于供给。

与去年同期相比，需求人数增加 15.6 万人，求职人数减少 17.3 万人。与上季度相比，需求人数和求职人数分别减少了 58.9 万人和 73.2 万人，各下降了 12%和 17.2%。

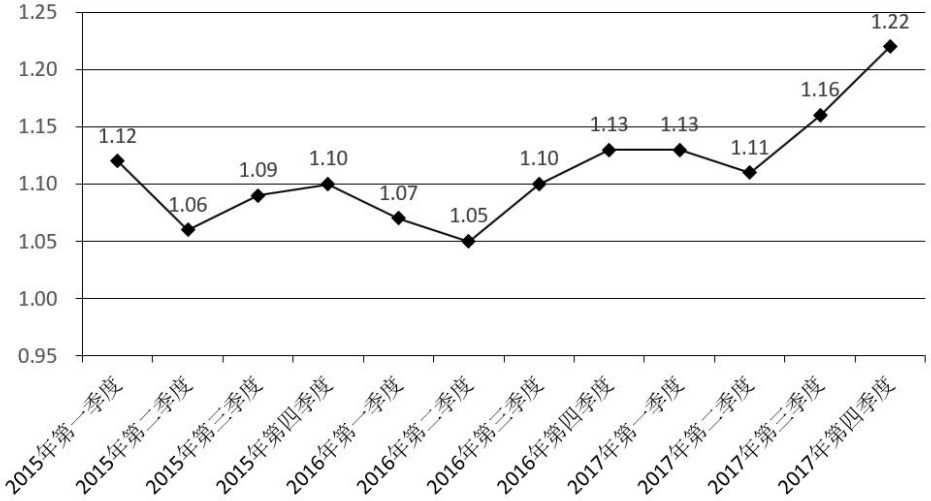

2015年第一季度—2017年第四季度岗位空缺与求职人数比率变化趋势

分区域看，东、中、西部市场岗位空缺与求职人数的比率分别为 1.22、1.18、1.29，市场需求均略大于供给。

2017年第四季度与去年同期相比东、中、西部市场供需变化情况

区域	市场用人需求		求职人数	
	增加量（万人）	增长率（%）	增加量（万人）	增长率（%）
东部	15	7.1	-12.2	-6.2
中部	0.5	0.4	-0.4	-0.4
西部	0.1	0.2	-4.7	-7.4

1．2017 年，第四季度岗位空缺与求职人数比率较第三季度上升了：

A．0.03

B．0.06

C．0.09

D．0.12

2．2015—2017 年，各季度的岗位空缺与求职人数比率的平均值约为：

A．1.07

B．1.09

C．1.11

D．1.13

3．2017 年第四季度求职人数比 2016 年第四季度下降了约：

A．5%

B．8%

C．10%

D．12%

4．2015—2017 年，人力资源市场供给最能满足市场需求的是：

A．2015 年第三季度

B．2016 年第二季度

C．2017 年第一季度

D．2017 年第四季度

5．根据材料，下列说法正确的是：

A．2015 年第一季度以来，东、中、西三大区域市场需求长期大于供给

B．2016 年第二季度以来，岗位空缺与求职人数比率总体呈“W”型变化趋势

C．2017 年第三季度东、中、西三大区域人才市场中，西部市场岗位空缺与求职人数的比率最大

D．2016 年第四季度，中部市场岗位空缺与求职人数的比率约为 1.25

材料 2

2020 年某行业销售、管理和财务费用累计值

单位：亿元

	销售费用	管理费用	财务费用
1—2 月	635.2	201.0	29.7
1—3 月	973.2	320.4	49.6
1—4 月	1310.8	434.1	70.6
1—5 月	1643.9	549.1	88.2
1—6 月	2064.5	687.6	102.0
1—7 月	2429.5	809.3	123.7
1—8 月	2809.3	927.7	148.5
1—9 月	3297.9	1070.9	174.5
1—10 月	3674.3	1198.4	198.2
1—11 月	4107.1	1347.4	225.3
1—12 月	4635.6	1575.1	250.2

1．2020 年该行业销售费用约是管理、财务费用之和的多少倍？

A．2.5

B．2.9

C．3.4

D．4.0

2．以下饼图中，最能准确反映 2020 年 7 月该行业销售（用白色表示）、管理（用灰色表示）和财务（用黑色表示）费用占比关系的是：

A． 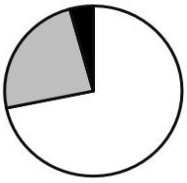

B． 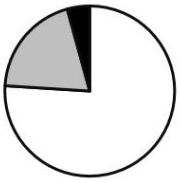

C． 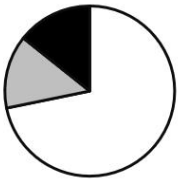

D. 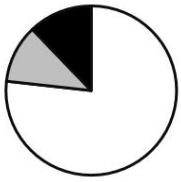

3．在该行业销售费用、管理费用和财务费用三项费用中，2020 年前 7 个月费用额不到全年总额一半的有几项？

A．0

B．1

C．2

D．3

4．2020 年下半年该行业财务费用最高的月份是：

A．9 月

B．10 月

C．11 月

D．12 月

5．关于 2020 年该行业销售、管理和财务费用，能够用上述资料中推出的是：

A．二季度销售费用低于一季度水平

B．四季度每个月的销售费用都超过 400 亿元

C．管理费用累计超过 1000 亿元是在第四季度

D．二季度各月，财务费用逐月递减

材料 3

截至 2019 年 3 月 31 日，证券业协会对证券公司 2019 年第一季度经营数据进行了统计。131 家证券公司当期实现营业收入 1018.94 亿元，同比增长 54.47%。

其中，各主营业务收入分别为代理买卖证券业务净收入（含席位租赁）221.49 亿元，同比增长 13.77%；证券承销与保荐业务净收入 66.73 亿元，同比增长 19.5%；财务顾问业务净收入 20.95 亿元，同比增长 15.17%；投资咨询业务净收入 7.15 亿元，同比增长 5.15%；资产管理业务净收入 57.33 亿元，同比下降 15.43%；证券投资收益（含公允价值变动）514.05 亿元，同比增长 215.17%；利息净收入 69.04

亿元，同比增长 4.94%；当期实现净利润 440.16 亿元，同比增长 86.83%；119 家公司实现盈利，同比增长 10.19%。

2019 年第一季度，131 家证券公司总资产为 7.05 万亿元，比上年一季度同期增加 0.64 万亿元；净资产为 1.94 万亿元，比上年一季度同期增加 0.05 万亿元；净资本为 1.62 万亿元，比上年一季度同期增加 0.02 万亿元。

另外，2019 年第一季度 131 家证券公司客户交易结算资金余额（含信用交易资金）1.50 万亿元，比上年一季度同期增加 0.32 万亿元；受托管理资金本金总额 14.11 万亿元，比上年一季度同期下降 2.82 万亿元。

1．2018 年第一季度，131 家证券公司代理买卖证券业务净收入（含席位租赁）约为：

A．184.6 亿元

B．190.1 亿元

C．194.7 亿元

D．204.2 亿元

2．131 家证券公司中，平均每家证券公司在 2018 年第一季度实现营业收入约为：

A．659.4 亿元

B．5.0 亿元

C．669.5 亿元

D．6.0 亿元

3．2019 年第一季度，131 家证券公司总资产的同比增速约为：

A．9.5%

B．10.0%

C．10.5%

D．11.0%

4．2019 年第一季度，131 家证券公司客户交易结算资金余额（含信用交易资金）的同比增速与受托管理资金本金总额的同比降速相比约：

A．多了 10.5%

B．少了 10.5%

C．多了 11.2%

D．少了 11.2%

5．关于证券公司 2019 年第一季度经营数据，下列说法正确的是：

A．131 家证券公司总资产比净资产少了 4.11 亿元

B．131 家证券公司财务顾问业务净收入的同比增长率为 13.77%

C．131 家证券公司净资产的同比增长金额低于净资本的同比增长金额

D. 131 家证券公司资产管理业务净收入占当期实现营业收入的比重约为 5.6%

材料 4

2019 年 6 月，全国发行地方政府债券 8996 亿元，同比增长 68.37%，环比增长 195.63%。其中，发行一般债券 3178 亿元，同比减少 28.33%，环比增长 117.08%，发行专项债券 5818 亿元，同比增长 540.04%，环比增长 268.46%；按用途划分，发行新增债券 7170 亿元，同比增长 127.11%，环比增长 332.71%，发行置换债券和再融资债券 1826 亿元，同比减少 16.47%，环比增长 31.75%。

2019 年 6 月，地方政府债券平均发行期限 11.1 年，其中新增债券 10.4 年，置换债券和再融资债券 13.4 年；地方政府债券平均发行利率 3.55%，其中新增债券 3.52%，置换债券和再融资债券 3.65%。

2019 年 1 至 6 月，全国发行地方政府债券 28372 亿元，同比增长 101.09%。其中，发行一般债券 12858 亿元，同比增长 23.21%，发行专项债券 15514 亿元，同比增长 322.38%；按用途划分，发行新增债券 21765 亿元，同比增长 553.80%，发行置换债券和再融资债券 6607 亿元，同比减少 38.71%。

2019 年 1 至 6 月，地方政府债券平均发行期限 9.3 年，其中一般债券 11.2 年，专项债券 7.8 年；地方政府债券平均发行利率 3.47%，其中一般债券 3.53%，专项债券 3.43%。

2019 年全国地方政府债务限额为 240774.3 亿元。其中，一般债务限额 133089.22 亿元，专项债务限额 107685.08 亿元。截至 2019 年 6 月末，全国地方政府债务余额 205477 亿元，其中，一般债务 118397 亿元，专项债务 87080 亿元。

1．2019 年 6 月，全国发行的地方政府债券比 2018 年 6 月多约：

A．6151 亿元

B．5953 亿元

C．3653 亿元

D．3043 亿元

2．2018 年 6 月，发行置换债券和再融资债券约为：

A．3157 亿元

B．2186 亿元

C．1657 亿元

D．1386 亿元

3．2018 年 1 至 6 月，发行一般债券的占比较发行专项债券的占比约：

A．低 9.36%

B．低 52.81%

C．高 47.93%

D．高 53.43%

4．2019 年 1 至 6 月，全国发行地方政府债券同比增量绝对值排序正确的是：

A．新增债券>专项债券>置换债券和再融资债券>一般债券

B．新增债券>置换债券和再融资债券>一般债券>专项债券

C．专项债券>新增债券>置换债券和再融资债券>一般债券

D．置换债券和再融资债券>专项债券>一般债券>新增债券

5．不能从上述资料推出的是：

A．截至 2019 年 6 月末，地方政府一般债务余额和专项债务余额都控制在限额之内

B．2019 年 1 至 6 月，地方政府一般债券的平均发行利率高于专项债券 0.1 个百分点

C．2019 年 5 月，地方政府新增债券的平均发行期限比置换债券和再融资债券短

D．2019 年地方一般债务限额比专项债务限额多 25404.14 亿元

第十组

材料 1

2017 年全年，上海口岸货物进出口总额 79211.40 亿元，比上年增长 15.1%。其中，进口 33445.10 亿元，增长 18.9%；出口 45766.30 亿元，增长 12.5%。全年上海关区货物进出口总额 59690.24 亿元，比上年增长 14.0%。其中，进口 24684.20 亿元，增长 19.3%；出口 35006.04 亿元，增长 10.6%。全年上海市货物进出口总额 32237.82 亿元，比上年增长 12.5%。其中，进口 19117.51 亿元，增长 15.4%；出口 13120.31 亿元，增长 8.4%。

2016—2017 年上海市对主要国家和地区货物进口额和出口额

国家和地区	进口额（亿元）		出口额（亿元）	
	2016 年	2017 年	2016 年	2017 年
美国	1791.99	2072.56	2956.08	3147.10
欧盟	3729.41	4488.51	1990.54	2327.78
东盟	2069.86	2642.73	1446.00	1595.16
日本	1941.73	2224.75	1266.95	1308.98
中国香港	267.37	26.89	1196.48	1217.63
韩国	1079.57	1258.42	484.09	429.61
中国台湾	1050.67	1212.35	425.55	468.63
俄罗斯	137.10	136.97	108.65	162.30

1．2017 年，上海口岸货物进出口总额比上年增加：

A．1 万亿元以上

B．0.7—1 万亿元之间

C．0.4—0.7 万亿元之间

D．不到 0.4 万亿元

2．2017 年，表中国家和地区自上海市货物进口额同比增速超过 10%的有多少个？

A．2

B．3

C．4

D．5

3．2017 年，上海市对以下哪一个主要国家或地区实现的贸易顺差最大？

A．美国

B．欧盟

C．东盟

D．中国香港

4．2017 年全年，上海口岸货物进出口贸易顺差比同期上海关区顺差：

A．低不到 0.3 万亿元

B．低 0.3 万亿元以上

C．高不到 0.3 万亿元

D．高 0.3 万亿元以上

5．能够从上述资料中推出的是：

A．2017 年，上海关区月均货物进出口贸易额超过 5000 亿元

B．2017 年，上海市自欧盟货物进口额占其进口总额的三成以上

C．2017 年，上海市货物进口总额中自东盟进口额占比高于上年水平

D．2017 年，上海市自日本进口额同比增速慢于对日本出口额同比增速

材料 2

2018 年 H 市粮食种植面积 235.7 千公顷，油料种植面积 3.0 千公顷，棉花种植面积 0.02 千公顷。在粮食种植面积中，玉米种植面积 199.3 千公顷，小麦种植面积 4.7 千公顷。全年粮食产量 150.2 万吨。其中，夏粮 2.4 万吨，秋粮 147.9 万吨。

2018 年 H 市完成邮电业务总量 108.2 亿元。其中，邮政业务总量 40.8 亿元，同比增长 26.5%;电信业务总量 67.4 亿元，同比增长 56.7%。年末移动电话用户达到 341 万户，其中，3G 移动电话用户达到 25.7 万户，4G 移动电话用户达到 241.4 万户。全市互联网接入用户 89.9 万户，其中，新增互联网用户 23.8 万户。

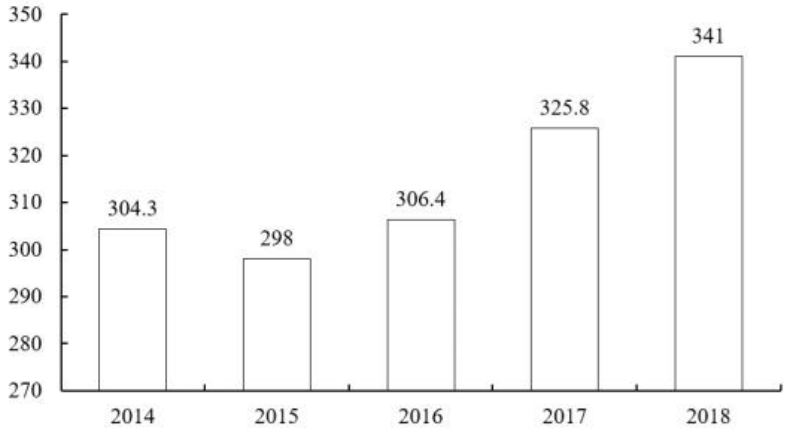

2014—2018年全市年末移动电话用户数量（单位：万户）

2018 年全年全市保费收入 65.4 亿元，增长 0.7%。其中，寿险业务保费收入 39.5 亿元，下降 5.1%;健康和意外险业务保费收入 9.1 亿元，增长 21.6%，增速同比增加 5 个百分点；财产险业务保费收入 3.4 亿元，增长 25.2%;车险业务保费收入 13.3 亿元，增长 1.8%。全年支付各类赔款及给付 21.2 亿元，增长 5.3%。其中，寿险业务保费赔付 11.0 亿元，增长 1.4%；健康和意外险业务保费赔付 3.0 亿元，增长 68.7%;财产险业务保费赔付 0.9 亿元，增长 5.7%;车险业务保费赔付 6.4 亿元，下降 5.0%。

1．2018 年 H 市平均每公顷的粮食产量约是：

A．5.34 吨

B．5.87 吨

C．6.12 吨

D．6.37 吨

2．2018 年 H 市邮电业务总量同比增速在下列哪一个范围内？

A．23%—41%

B．41%—57%

C．57%—71%

D．高于 71%

3．2014 年—2018 年中年末移动电话用户数量同比增速大于 3%的年份有几个？

A．1 个

B．2 个

C．3 个

D．4 个

4．2016 年全年全市健康和意外险业务保费收入约为多少亿元？

A．7.5

B．6.9

C．6.4

D．6.1

5．下列不能从上述资料中推出的是：

A．2018 年秋粮的产量约是夏粮的 62 倍

B．2017 年邮政业务总量约占电信业务总量的 75%

C．2017 年寿险业务保费赔付金额约 0.85 亿元

D．2018 年全年保费收入同比增速高于 10%的业务类型有 2 个

材料 3

2016 年，我国全年社会消费品零售总额 332316 亿元。按经营地统计，城镇消费品零售额 285814 亿元，增长 10.4%；乡村消费品零售额 46503 亿元，增长 10.9%。按消费类型统计，商品零售额 296518 亿元，增长 10.4%；餐饮收入额 35799 亿元，增长 10.8%。

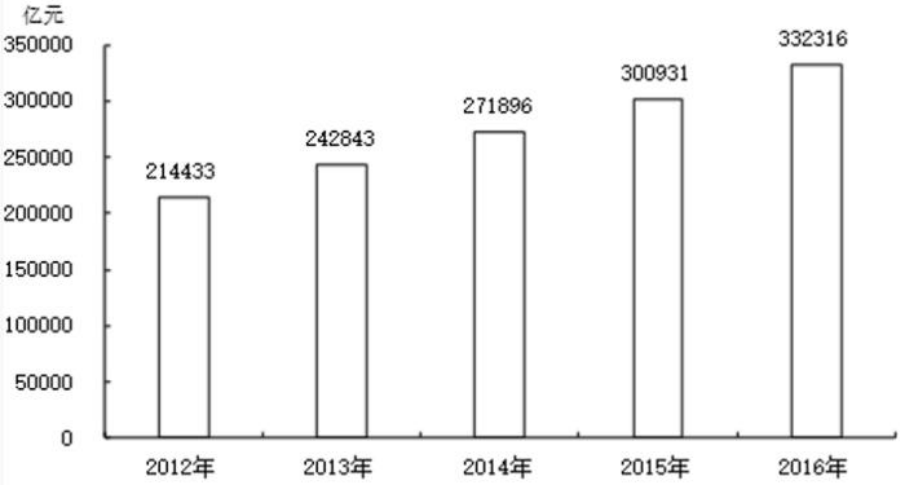

2012—2016年社会消费品零售总额

在限额以上企业商品零售额中，粮油、食品、饮料、烟酒类零售额比上年增

长 10.5%，服装、鞋帽、针纺织品类增长 7.0%，化妆品类增长 8.3%，金银珠宝类与上年持平，日用品类增长 11.4%，家用电器和音像器材类增长 8.7%，中西药品类增长 12.0%，文化办公用品类增长 11.2%，家具类增长 12.7%，通讯器材类增长 11.9%，建筑及装潢材料类增长 14.0%，汽车类增长 10.1%，石油及制品类增长 1.2%。

全年网上零售额 51556 亿元，比上年增长 26.2%。其中，网上商品零售额 41944 亿元，增长 25.6%，占社会消费品零售总额的比重为 12.6%。在网上商品零售额中，吃类商品增长 28.5%，穿类商品增长 18.1%，用类商品增长 28.8%。

1．2013-2016 年，社会消费品零售总额同比增速最快的年份是：

A．2013 年

B．2014 年

C．2015 年

D．2016 年

2．2016 年，我国限额以上企业商品零售额，按增幅排序正确的是：

A．文化办公用品类＞通讯器材类＞日用品类

B．家具类＞中西药品类＞建筑及装潢材料类

C．汽车类＞化妆品类＞粮油、食品、饮料、烟酒类

D．家用电器和音像器材类＞服装、鞋帽、针纺织品类＞石油及制品类

3．2015 年，我国网上商品零售额占当年社会消费品零售总额的比重可用下列哪一图形表示？

A．

B．

C．

D.

4．如从 2016 年开始，社会消费品零售总额年增量保持不变，社会消费品零售总额首次超过 40 万亿元的年份是：

A．2017 年

B．2018 年

C．2019 年

D．2020 年

5．不能从上述资料中推出的是：

A．2012-2016 年，社会消费品零售总额超过 140 万亿元

B．2015 年，城镇消费品零售总额占当年社会消费品零售总额的 80%以上

C．2016 年，限额以上企业商品零售额中，并非所有品类都呈增长趋势

D．2016 年，餐饮收入额占社会消费品零售总额的比重同比上升了不到 0.4 个百分点

材料 4

2016 年国产工业机器人全年累计销售 29144 台，较上年增长 16.8%，增速较上年提升。

从机械结构看，2016 年国产多关节机器人销量首次超过万台，为 11756 台，增速已连续两年超过 70%，占国产工业机器人总销量的 40.3%，比上年提高 12.9 个百分点。坐标机器人仍是国产工业机器人销量第一的机型，2016 年销售 12830 台，占销售总量的比重为 44.0%，比上年回落 3.5 个百分点，连续两年占比回落。工厂用 AGV 机器人销量超过 2100 台，同比增长 23.9%。并联机器人销售增长 8%，而 SCARA 机器人和圆柱坐标机器人的销售则出现超过 30%的下降。

从应用领域看，2016 年搬运与上下料仍是国产工业机器人的首要应用领域，全年销售 1.65 万台，同比增长 22.0%，增速放缓，占国产工业机器人销售总量的 56.6%，比上年有所回落；焊接和钎焊机器人销售 0.51 万台，同比增长 36.3%；装

配与拆卸机器人销售 0.37 万台，同比增长 129%。此外涂层与胶封机器人的销售也实现了 32.9%的增长，特别是其中的喷漆上釉机器人销量增长了 138%，而洁净室机器人和加工机器人的销售量均出现了同比下降。

从应用行业看，3C 行业和电气设备行业销量均超过 5000 台，分列第一第二位，特别是电气设备行业，同比大幅增长 3 倍有余。汽车行业销量同比增长 45.4%；非金属矿物制品业销量同比增长 125%。此外，在家具、服装、烟草等消费品制造行业的机器人消费量均翻番。

1．2016 年国产工业机器人累计销售量较上年约增加了多少万台？

A．0.20

B．0.31

C．0.42

D．0.53

2．以下饼图中，最能准确反映 2015 年不同机械结构的国产工业机器人销量分布状况的是：（白色：多关节机器人、斜线：坐标机器人、黑色：其他机器人）

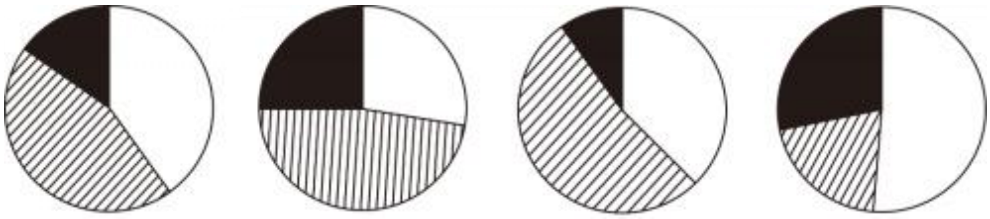

A．　　B．　　C．　　D．

3．2016 年装配与拆卸机器人销量占国产工业机器人总销量比重比上年约：

A．下降了 2 个百分点

B．下降了 6 个百分点

C．提升了 2 个百分点

D．提升了 6 个百分点

4．下列指标中，2015、2016 连续两年均实现增长的是：

①国产多关节机器人销量

②搬运与上下料机器人销量

③圆柱坐标机器人销量

④并联机器人销量占总销量的比例

A．①②

B．①③

C．②④

D．③④

5．关于 2016 年国产工业机器人销售状况，能够从上述资料中推出的是：

A．工厂用 AGV 机器人销量较上年增加了 500 多台

B．焊接和钎焊机器人销量占总销量的 2 成以上

C．3C、汽车行业销量占总销量比重均同比上升

D．电气设备行业销售增量超过 3000 台